அலகு 20

விலங்குகளின் உறுப்பு மண்டலங்கள்

AHQBXG

கற்றலின் நோக்கங்கள்

இப்பாடத்தைக் கற்றபின் மாணவர்கள் பெறும் திறன்களாவன:

- செரிமானம், கழிவு நீக்கம் மற்றும் இனப்பெருக்கம் ஆகிய சொற்பதங்களை வரையறுத்தல்.
- உணவுப் பாதையிலுள்ள பல்வேறு பகுதிகள் மற்றும் அங்கு நிகழும் செரிமான செயல்பாட்டினை புரிந்து கொள்தல்.
- செரிமான செயல்பாட்டில் நொதிகளின் பங்கினைப் புரிந்து கொள்தல்.
- கழிவு நீக்க செயல்பாட்டில் ஈடுபடும் உறுப்புகள் பற்றி புரிந்து கொள்தல்.
- கழிவு நீக்கத்தால் வெளியேற்றப்படும் பொருள்களைக் கண்டறிந்து கொள்தல்.
- கழிவு நீக்கத்தில் தோலின் பங்கினைப் புரிந்து கொள்தல்.
- கழிவு நீக்க மண்டலத்திலுள்ள உறுப்புகள் மற்றும் அவற்றின் செயல்களைப் புரிந்து கொள்தல்.
- சிறுநீர் உருவாக்க முறையைக் கற்றுக்கொள்தல்.
- ஆண் மற்றும் பெண் மனித இனப்பெருக்க மண்டலத்தின் பணிகளைக் கற்றுக்கொள்தல்.

அறிமுகம்

அனைத்து உயிரினங்களும் எளிமையான வடிவத்திலிருந்து சிக்கலான அமைப்பு நிலையாக உருவாகின்றன. அதாவது, அவை ஒரு செல்லாக, பல செல்களாக, திசுக்களாக, உறுப்பு நிலை மற்றும் உறுப்புமண்டல நிலைகளாக அமைக்கப்படுகின்றன. ஓர் உயிரினத்தின் அடிப்படை அலகு செல் ஆகும். செல்கள் ஒருங்கிணைந்து திசுக்களாகவும், திசுக்களெல்லாம் உறுப்பாகவும், உறுப்புகளெல்லாம் உறுப்பு மண்டலங்களாகவும், உறுப்பு மண்டலங்கள் முழு உயிரினமாகவும் உருவாகின்றன. ஓர் உயிரினத்தின் பல்வேறு உறுப்புகளும் உறுப்பு மண்டலங்களும் ஒன்றுடன் ஒன்று ஒருங்கமைந்து இணைவாக சார்ந்து செயலாற்றுகின்றன. ஓர் மிதிவண்டியை நாம் இயக்கும்போது, நமது தசை மண்டலமும், எலும்பு மண்டலமும் இணைந்து நமது கைகளால் வண்டியை இயக்கவும் கால்களால் மிதிக்கவும் துணை புரிந்து செயலாற்றுகின்றன. நரம்பு மண்டலமானது நம்முடைய கைகளையும் கால்களையும் வேலை செய்வதற்கு வழிநடத்துகிறது. அதே நேரத்தில், சுவாச, செரிமான மண்டலம் மற்றும் இரத்த ஓட்ட மண்டலம் ஆகியவை செயலாற்றி தசைகளுக்கு ஆற்றலை வழங்குகின்றன. உறுப்பு மண்டலங்கள் அனைத்தும் இணைவாக செயலாற்றி உயிரினத்தின் உடலினை ஓர் மாறா நிலையில் அல்லது சமச்சீர் நிலையில் (ஹோமியோஸ்டேடிக்) பராமரிக்கின்றன.

உறுப்புகள் மற்றும் உறுப்பு மண்டலங்கள் முதன்முதலில் தட்டைப்புழுக்கள் தொகுதியில் தோன்றி பாலூட்டிகள் வகுப்பு வரை தொடர்கிறது. ஒரே அமைப்புடைய செல்கள் குழுவாக சேர்ந்து தசைத்திசு, நரம்புத்திசு போன்ற திசுக்களாக உருவாகின்றன. திசுக்கள் இணைந்து இதயம், மூளை போன்ற உறுப்புகளை உருவாகின்றன. இதைப்போல இரண்டு அல்லது அதற்கு மேற்பட்ட ஒத்த பணிகளைச் செய்யும் உறுப்புகள் இணைந்து செரிமான மண்டலம், இரத்த ஓட்ட மண்டலம், நரம்பு மண்டலம் போன்ற உறுப்பு மண்டலங்களை உருவாக்கி, அவை முறையே செரிமானம், இரத்த ஓட்டம் மற்றும் நரம்புத் தூண்டுணர்வைக் கடத்துதல் ஆகிய பணிகளைச் செய்கின்றன. பணிப் பங்கீடு பல்வேறு உறுப்பு மண்டலங்களில் காணப்படுகின்றது.

இந்த அத்தியாயத்தில் நாம் மனிதனின் செரிமான மண்டலம், கழிவு நீக்க மண்டலம் மற்றும் இனப்பெருக்க மண்டலம் போன்ற மண்டலங்களின் அமைப்பு மற்றும் அவற்றின் பணிகள் குறித்து கற்றுக் கொள்வோம்.

IX_SCI_TM_Unit-20_BIO.indd 237 05-03-2020 15:21:52

அட்டவணை 20.1 விலங்குகளின் உறுப்பு மண்டலங்கள்

உறுப்பு மண்டலங்கள்	உறுப்புகள்	செயல்பாடுகள்
புறச்சட்டக மண்டலம்	தோல் மற்றும் தோல் சுரப்பிகள்	பாதுகாத்தல், கழிவு நீக்கம் இன்னும் பிற
எலும்பு மண்டலம்	மண்டை ஓடு, முதுகெலும்புத் தொடர், மார்பெலும்பு, வளையங்கள் மூட்டுகள்	ஆதாரம், வடிவம் மற்றும் உடலுக்கு ஓர் அமைப்பைத் தருதல்
தசை மண்டலம்	தசை நார்கள்	சுருங்குதல் மற்றும் தளர்வு காரணமாக இயக்குதல்
நரம்பு மண்டலம்	மூளை, தண்டுவடம், நரம்புகள்	நரம்புத் தூண்டுணர்வைக் கடத்துதல்.
இரத்த ஓட்ட மண்டலம்	இதயம், இரத்தம் மற்றும் இரத்தக் குழாய்கள்	சுவாச வாயுக்கள், ஊட்டச்சத்துப் பொருட்கள், கழிவுப் பொருட்கள் போன்றவற்றை கடத்துதல்.
சுவாச மண்டலம்	சுவாசப் பாதை மற்றும் நுரையீரல்	சுவாசம்
செரிமான மண்டலம்	செரிமானப்பாதை மற்றும் செரிமானச்சுரப்பிகள்	செரிமானம், உட்கிரகித்தல், மலம் வெளியேற்றல்
கழிவு நீக்க மண்டலம்	சிறுநீரகம், சிறுநீர்க் குழாய்கள், சிறு நீர்ப்பை, சிறு நீர்ப் புற வழி	நைட்ரஜன் கழிவுப் பொருட்களை நீக்கல்
இனப்பெருக்க மண்டலம்	விந்தகம் மற்றும் அண்டகம்	பாலின உயிரணு உருவாக்கம் மற்றும் இரண்டாம் பாலினப் பண்பு வளர்ச்சி
உணர்ச்சி மண்டலம்	கண், மூக்கு, காது, நாக்கு மற்றும் தோல்	பார்த்தல், நுகர்தல், கேட்டல், சுவைத்தல் மற்றும் தொடுதல்.
நாளமில்லா சுரப்பி மண்டலம்	பிட்யூட்டரி, தைராய்டு, பாராதைராய்டு, அட்ரினல், கணையம், பீனியல் சுரப்பி, தைமஸ், இனப்பெருக்க சுரப்பிகள்	அனைத்து உறுப்பு மண்டலங்களின் செயல்களையும் ஒருங்கிணைத்தல்

20.1 மனிதனின் செரிமான மண்டலம்

நாம் உண்ணும் உணவானது எளிய மூலக்கூறுகளாகிய வைட்டமின்கள் மற்றும் தாதுக்கள் மட்டுமல்லாது, சிக்கலான மூலக்கூறுகளான கார்போஹைட்ரேட்டுகள், புரதங்கள் மற்றும் கொழுப்புகளையும் கொண்டுள்ளது. இந்த மூலக்கூறுகளானவை எளிய பொருட்களாக மாறாத பட்சத்தில் நமது உடலானது அவற்றைப் பயன்படுத்தமுடியாது. எனவே நமது உடலில் செரிமானமானது ஐந்து படிநிலைகளில் நிகழ்கிறது, அவையாவன: உணவு உட்கொள்ளல், செரித்தல், உட்கிரகித்தல், தன்மயமாதல் மற்றும் மலம் வெளியேற்றுதல் என்பனவாகும்.

நமது உடலில் உணவானது உட்புகுவதிலிருந்து செரிமானத்தின் செயல்பாடுகள் துவங்குகின்றன. இதுவே உட்கொள்ளல் எனப்படும். சிக்கலான, கடினமான, கரையாத் தன்மையுடைய உணவு மூலக்கூறுகளானவை செரிமான நொதிகளின் செயலால் சிறிய, எளிய, கரையும் மற்றும் விரவும் தன்மையுடைய துகள்களாக மாறுவதே செரித்தல் எனப்படும். உணவு செரிமானம் அடைதலோடு தொடர்புடைய உடல் உறுப்புகளின் அமைப்பை செரிமான மண்டலம் என்கிறோம்.

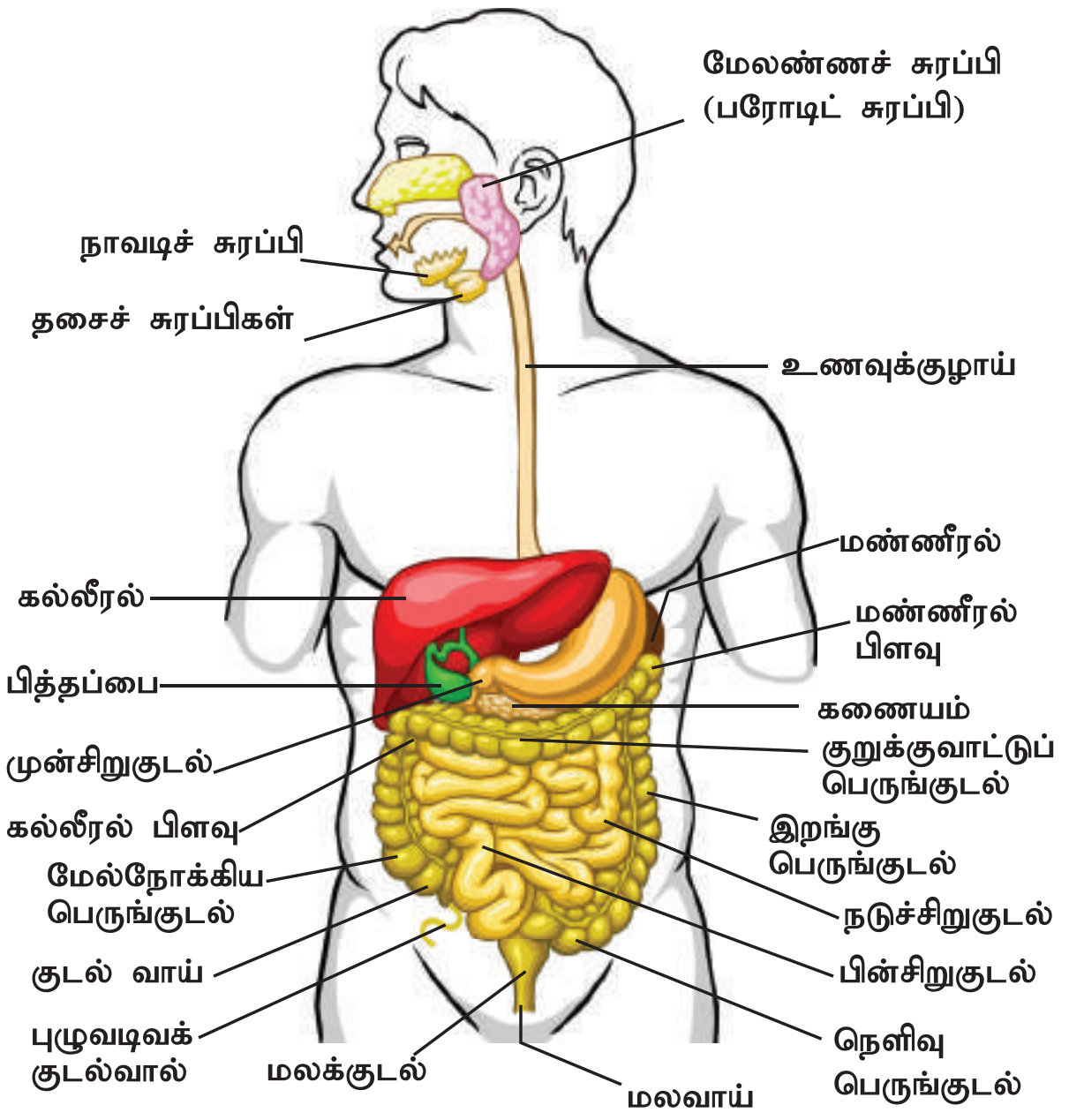

படம். 20.1 மனித செரிமான மண்டலத்தின் பகுதிகள்

IX_SCI_TM_Unit-20_BIO.indd 238 05-03-2020 15:21:53

செரிமான மண்டலம் இரண்டு தொகுப்பான உறுப்புகளைக் கொண்டுள்ளது.

உணவுப்பாதை (செரிமான வழி / இரைப்பை சிறுகுடல் வழி பாதை): இது வாயில் துவங்கி மலவாயில் முடிவடையும் உணவு செல்லும் பாதையைக் குறிக்கிறது.

செரிமான சுரப்பிகள்: உமிழ் நீர்ச் சுரப்பிகள், இரைப்பைச் சுரப்பிகள், கணையம், கல்லீரல் மற்றும் குடல் சுரப்பிகள் ஆகியவை செரிமான மண்டலத்தோடு தொடர்புடைய சுரப்பிகளாகும்.

20.1.1 உணவுப் பாதையின் அமைப்பு

உணவுப் பாதை தசையாலான, சுருண்ட மற்றும் குழாய் வடிவ அமைப்பாகும். இவ்வுணவுப் பாதை, வாய், வாய்க்குழி, தொண்டை, உணவுக் குழல், இரைப்பை, சிறுகுடல் (முன்சிறுகுடல், நடுச்சிறுகுடல் மற்றும் பின் சிறுகுடல் உள்ளடங்கியது), பெருங்குடல் (குடல்வால், கோலன் மற்றும் மலக்குடல் உள்ளடங்கியது) மற்றும் மலவாய் போன்ற உறுப்புகளைக் கொண்டுள்ளது.

வாய்: வாய், உணவுப் பாதையின் ஆரம்பத் துவாரமாகும். இது வாய்க்குழிக்குள் திறக்கிறது. இது இரு மென்மையான அசையும் மேல் மற்றும் கீழ் உதடுகளால் பிணைக்கப்பட்டுள்ளது. வாய்க்குழியானது பெரிய இடைவெளியோடு மேல் பகுதியில் அண்ணம் (காற்றுக் குழாயையும் உணவுக் குழாயையும் பிரிப்பது) என்ற பகுதியாலும், கீழ்ப்பகுதியில் தொண்டையாலும், பக்கப்பகுதியில் தாடைகளாலும் பிணைக்கப்பட்டுள்ளன. தாடைகள் பற்களைத் தாங்குகின்றன.

பற்கள்: கடினமான கட்டமைப்பைக் கொண்ட பற்கள் உணவைப் பிடித்துக் கொள்வதற்கும், வெட்டுவதற்கும், அரைப்பதற்கும் மற்றும் நசுக்குவதற்கும் உதவுகின்றன. மனிதர்களின் வாழ்நாளில் பற்கள் இரண்டு தொகுப்பாக (இரட்டைப் பல்வரிசை) உருவாகின்றன. முதலில் இருபது தற்காலிக இணைப்பற்கள் அல்லது பால் பற்கள் தோன்றுகின்றன. பின்னர் இப்பற்களுக்குப் பதிலாக இரண்டாம் தொகுப்பில், முப்பத்திரெண்டு நிரந்தர பற்கள் (கலப்பு பல் வரிசை) மாற்றியமைக்கப்படுகின்றன. இவைகள் ஒரு தாடைக்கு பதினாறு வீதம் இருக்கும். ஒவ்வொரு பல்லும் ஒரு வேரினைக் கொண்டு ஈறுகளில் (திகோடான்ட்) பொருத்தப்பட்டுள்ளது.

நிரந்த பற்களானவை, அமைப்பு மற்றும் பணிகளின் அடிப்படையில் நான்கு வகைகளாகப் பிரிக்கப்பட்டுள்ளன. அவையாவன: வெட்டுப்பற்கள், கோரைப்பற்கள், முன்கடைவாய்ப் பற்கள் மற்றும் பின் கடைவாய்ப் பற்கள்.

அட்டவணை 20.2 பற்களின் வகைகளும் அவற்றின் பணிகளும்

பற்களின் வகைகள்	பற்களின் எண்ணிக்கை	பணிகள்
வெட்டுப் பற்கள்	8	வெட்டவும் மற்றும் கடிக்கவும்
கோரைப் பற்கள்	4	கிழிக்கவும் மற்றும் துளையிடவும்
முன் கடைவாய்ப் பற்கள்	8	நசுக்கவும் மற்றும் அரைக்கவும்
பின் கடைவாய்ப் பற்கள்	12	நசுக்கவும், அரைக்கவும் மற்றும் மெல்லவும்.

ஒவ்வொரு பாதி தாடைப் (மேல் மற்றும் கீழ்தாடை) பகுதியிலும் பிரதிநிதித்துவம் பெற்றுள்ள பல்வேறு பற்களின் வகைகளை பல் சூத்திரம் குறிக்கின்றது. பற்களின் வகைகள், வெட்டுப்பற்கள் (வெ), கோரைப்பற்கள் (கோ), முன் கடைவாய் பற்கள் (முக) மற்றும் பின்கடைவாய் பற்கள் (பிக) என குறிக்கப்படுகின்றன. கீழ்காணும் விதத்தில் பல் சூத்திரமானது வழங்கப்படுகிறது.

பால் பற்களில் ஒவ்வொரு பாதி கீழ் மற்றும் மேல் தாடைக்கு :

$$\frac{2, 1, 2}{2, 1, 2} = 10 \times 2 = 20$$

நிரந்தர பற்களில் ஒவ்வொரு பாதி கீழ் மற்றும் மேல் தாடைக்கு :

$$\frac{2, 1, 2, 3}{2, 1, 2, 3} = 16 \times 2 = 32$$

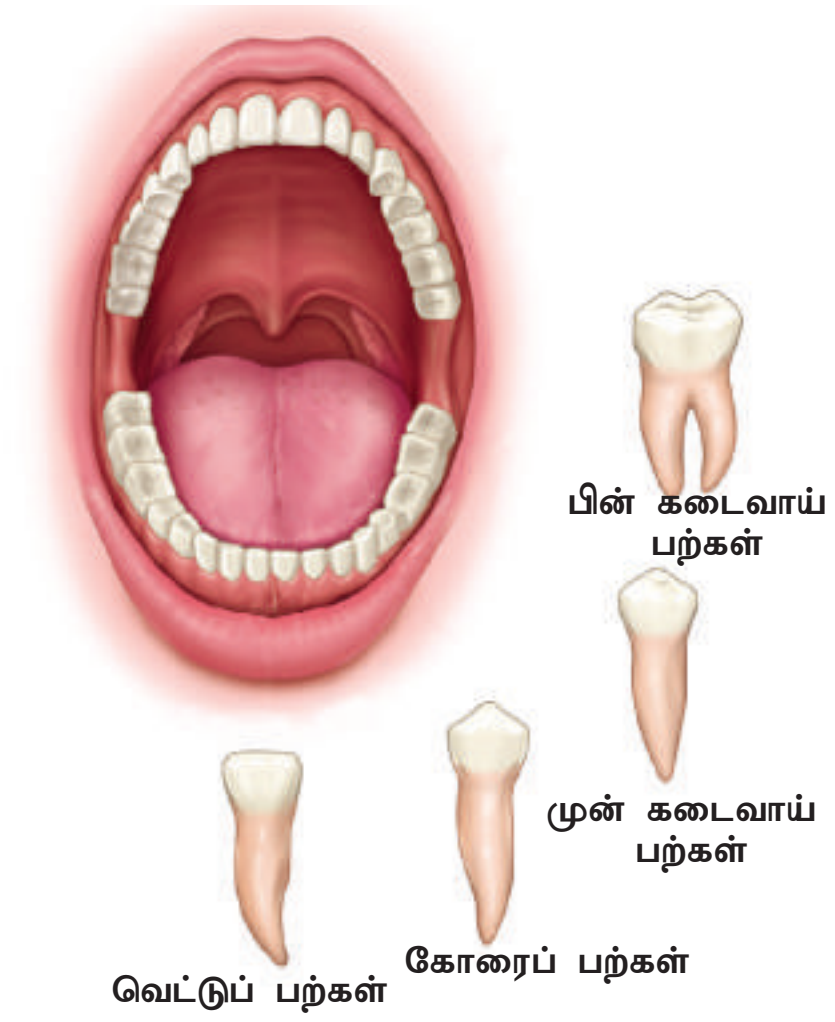

படம் 20.2 பற்களின் பல்வேறு வகைகள்

செயல்பாடு 1

கீழே கொடுக்கப்பட்டுள்ள படங்களைப் பார்த்து, அதனைத் தொடர்ந்து வரும் வினாக்களுக்கு பதிலளிக்கவும் :



1. இந்த விலங்குகளின் பற்கள் நம்முடைய பற்களுக்கு இணையாக இருக்கின்றனவா?
2. உணவுப் பழக்கத்திற்கு ஏற்றாற்போல அவற்றின் பற்களின் வடிவம் உள்ளதா?

உமிழ்நீர்ச் சுரப்பிகள்: வாய்க் குழிக்குள் மூன்று இணை உமிழ்நீர்ச் சுரப்பிகள் காணப்படுகின்றன. அவையாவன: மேலண்ணச் சுரப்பி, நாவடிச் சுரப்பி மற்றும் தாடைச் சுரப்பி

i. **மேலண்ணச் சுரப்பி:** இச்சுரப்பிதான் மிகப்பெரிய சுரப்பியாகும். இவை இரு கன்னங்களிலும், காதுக்குக் கீழே அமைந்துள்ளன.

ii. **நாவடிச் சுரப்பி:** இது மிகச் சிறிய சுரப்பியாகும். நாவின் அடிப்புறத்தில் அமைந்துள்ளது.

iii. **கீழ் மற்றும் மேல் தாடைச் சுரப்பிகள்:** இவை கீழ் தாடையின் கோணங்களில் காணப் படுகின்றன.

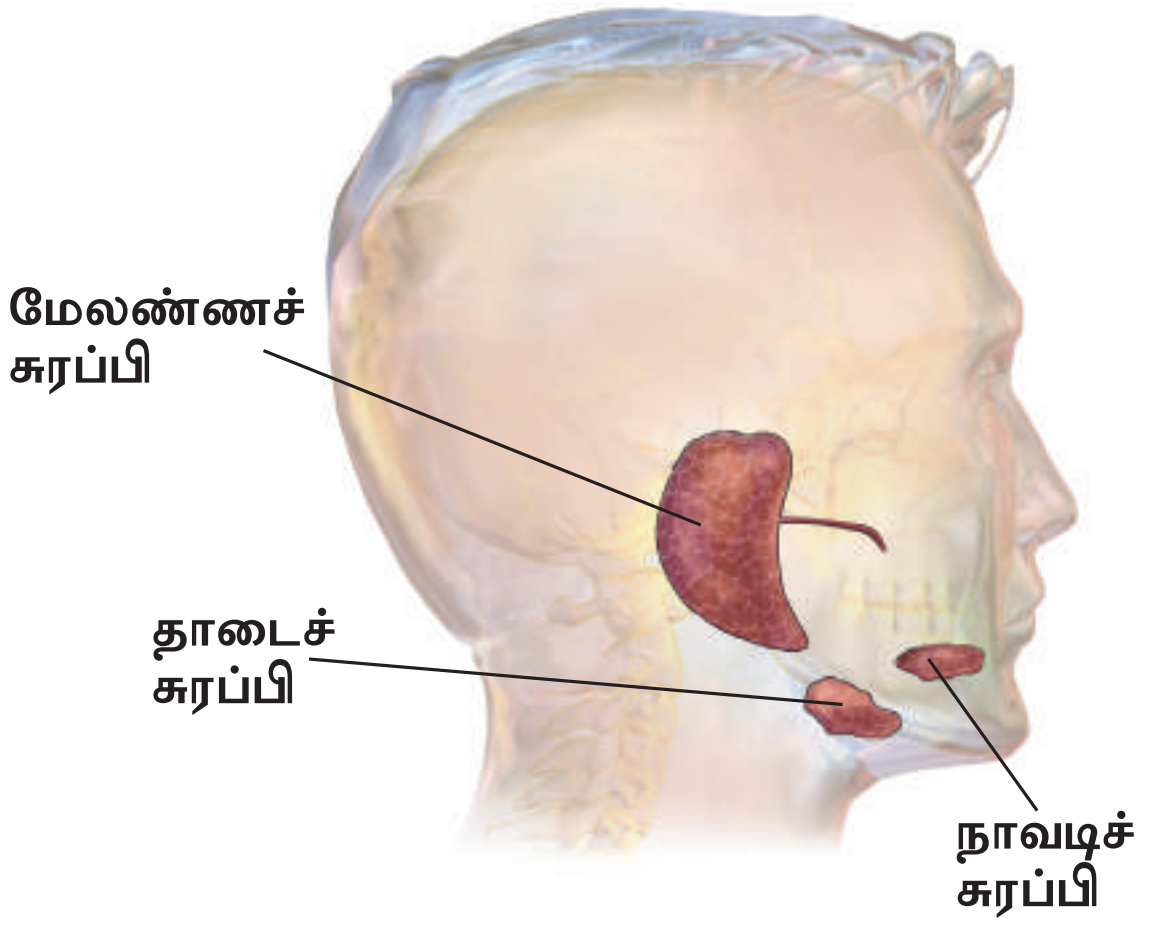

படம் 20.3 உமிழ் நீர்ச் சுரப்பிகள்

உமிழ்நீர்ச் சுரப்பிகள் ஒரு நாளுக்கு சுமார் 1.5 லிட்டர் பிசுபிசுப்பான திரவத்தினை சுரக்கின்றன. இது உமிழ்நீர் என்றழைக்கப்படுகிறது. உமிழ்நீரில் காணப்படும் டையலின் (அமிலேஸ்) என்ற நொதி ஸ்டார்ச்சை (கூட்டுச்சர்க்கரை) மால்டோசாக (இரட்டைச் சர்க்கரை) மாற்றுகிறது. உமிழ்நீரில் பாக்டீரியாவை எதிர்க்கும் லைசோசைம் என்ற நொதியானது உள்ளது.

நாக்கு: நாக்கு தசையாலான, உணர்ச்சி உறுப்பு ஆகும். இது உமிழ்நீருடன் உணவானது கலக்க உதவுகிறது. உணவின் சுவையை உணர்வதற்கு நாவில் உள்ள சுவை மொட்டுகள் உதவுகின்றன. உணவுக்கவளம் என்றழைக்கப்படுகிற மென்மையாக்கப்பட்ட உணவானது நாக்கின் மூலம் உருட்டப்பட்டு தொண்டை வழியாக விழுங்கப்பட்டு உணவுக் குழாய்க்குள் கடந்து செல்கிறது. இவ்வாறு உணவானது விழுங்கப்படும்போது குரல்வளை மூடியானது (தசையாலான மடல் போன்ற அமைப்புடைய தசையாலான குரல் வளையின் முனை மற்றும் மூச்சுக் குழலின் துவக்கத்தில் அமைந்துள்ளது) மூச்சுக்குழலுக்குள் உணவு போய்விடாதபடி தடுக்கிறது.

தொண்டை: தொண்டை என்பது, மூக்கு மற்றும் வாய்க்கு பின்னால் காணப்படும் மென்படலத்தால் சூழப்பட்ட குழி போன்ற அமைப்பு ஆகும். இது வாய்ப் பகுதியை உணவுக் குழலுடன் இணைக்கிறது. இது வாயிலிருந்து உணவானது உணவுக் குழலுக்கு கடந்து செல்லும் ஒரு பாதையாக பயன்படுகிறது.

உணவுக் குழல்: இது 22 செ.மீ நீளமுடைய தசைப்படலக் குழலாகும். இது தொண்டையிலிருந்து உணவினை இரைப்பைக்கு பெரிஸ்டால்சிஸ் என்னும் குடல் தசைச் சுவரின் சீரான சுருங்குதல் மற்றும் தளர்தல் (அலை போன்ற இயக்கம்) போன்ற நிகழ்வால் கடத்துகிறது.

இரைப்பை: இரைப்பையானது உணவுக் குழலுக்கும் சிறுகுடலுக்குமிடையே 'J' போன்ற வடிவத்தில் காணப்படும் தசையாலான அகன்ற உறுப்பாகும். இரைப்பையின் உள்ளடுக்கு சுவரில் காணப்படும் சுரப்பிகளிலிருந்து இரைப்பை நீர் சுரக்கிறது. இந்த இரைப்பை நீர் நிறமற்றதாகவும், அதிக அமிலத் தன்மையுடைய ஹைட்ரோகுளோரிக் அமிலத்தையும், நொதிகளான ரென்னின் (பச்சிளம் குழந்தைகளில்) மற்றும் பெப்சின் ஆகியவற்றையும் கொண்டதாக உள்ளது.

செயலற்ற பெப்சினோஜென், செயலாற்றும் பெப்சின் ஆக மாற்றப்பட்டு உட்கொள்ளப்பட்ட உணவிலுள்ள புரதத்தில் செயலாற்றுகிறது. உணவோடு விழுங்கப்பட்ட பாக்டீரியாக்களை ஹைட்ரோகுளோரிக் அமிலமானது அழித்துவிடுகிற அதே நேரத்தில் அமிலத் தன்மையால் இரைப்பையின் உட்சுவர்கள் பாதிக்கப்படாத விதத்தில் வழுவழுப்பான திரவம் ஒன்று பாதுகாக்கிறது. இரைப்பையிலுள்ள, இரைப்பைநீர் மற்றும் அரைக்கப்பட்ட உணவும் சேர்ந்து, உணவுக்கவளமானது அரை செரிமான

IX_SCI_TM_Unit-20_BIO.indd 240 05-03-2020 15:21:54

நிலையில் மாறியிருப்பது, இரைப்பைப்பாகு என அழைக்கப்படுகிறது. இந்த இரைப்பைப்பாகு குடலுக்குள் மெதுவாக குடல்வாய் (பைலோரஸ்) வழியாக நகர்கிறது.

மேலும் அறிந்துகொள்வோம்

ரென்னின் (Rennin) :
இது ஒரு செரிமான ஊக்கியாகும். பால் புரதமாகிய கேசின்னை உறைய வைக்கிறது மற்றும் புரதம் செரிமானமாவதை அதிகரிக்கிறது.

ரெனின் (Renin) :
ஆன்ஜியோடென்சினோஜென்னை ஆன்ஜியோடென்சின்னாக மாற்றுகிறது; மற்றும் சிறுநீரக வடிநீர்மத்திலிருந்து நீரையும் சோடியத்தையும் சீராக உறிஞ்சச் செய்கிறது.

சிறுகுடல்: உணவுக் கால்வாயில் மிகவும் நீளமான பகுதி சிறுகுடல் ஆகும். இது 5 – 7 மீட்டர் நீளமுள்ள சுருண்ட குழலாகும். இக்குடல் மூன்று பகுதிகளைக் கொண்டுள்ளது. அவை முன்சிறு குடல் (டியோடினம்), நடுச்சிறுகுடல் (ஜுஜினம்) மற்றும் பின்சிறுகுடல் (இலியம்) ஆகும்.

i. **முன்சிறுகுடல் (டியோடினம்):** சிறுகுடலின் மேல்பகுதியாயிருக்கும் இது 'C' வடிவத்தில் காணப்படுகிறது. பித்த நாளமும் (கல்லீரலிலிருந்து) கணைய நாளமும் (கணையத்திலிருந்து) இணைந்து டியோடினத்தில் திறக்கின்றன.

ii. **நடுசிறுகுடல் (ஜெஜுனம்):** சிறுகுடலின் நடுப்பகுதி **ஜெஜுனம்** ஆகும். இது சிறுகுடலின் சிறிய பகுதியாகும். சிறுகுடல் சுரக்கும் சுரப்புப் பொருள் சிறுகுடல் நீர் ஆகும். சிறுகுடல்நீரில் சுக்ரேஸ், மால்டேஸ், லாக்டேஸ் மற்றும் லிப்பேஸ் போன்ற நொதிகள் காணப்படுகின்றன.

iii. **பின்சிறுகுடல் (இலியம்):** சிறுகுடலின் அடிப்பகுதியாக இருக்கும் இப்பகுதி பெருங்குடலில் திறக்கிறது. இலியம் சிறுகுடலின் அதிக நீளமான பகுதியாகும். இவைகளில் மிகச்சிறிய விரல் போன்ற நீட்சிகள் காணப்படுகின்றன. அவை ஒவ்வொன்றும் 1 மி.மீட்டர் நீளமுடைய குடல் உறிஞ்சிகள் என அழைக்கப்படும். இவற்றில்தான் உணவானது உட்கிரகிக்கப்படுகிறது. சிறுகுடலில் ஏறக்குறைய நான்கு மில்லியன் குடலுறிஞ்சிகள் காணப்படுகின்றன. இதன் உட்பகுதியில் மெல்லிய இரத்தக் குழாய்களும், நிணநீர் கொண்ட குடற்பால் குழல்களும் காணப்படுகின்றன.

சிறுகுடலானது செரிமானம் மற்றும் உறிஞ்சுதல் ஆகிய இரண்டு செயல்களையும் செய்கிறது. இவை, இரு செரிமான சுரப்பிச் சாறுகளான பித்த நீரை கல்லீரலிலிருந்தும், கணைய நீரை கணையத்திலிருந்தும் டியோடினத்தில் பெறுகின்றன. குடல் சுரப்பிகள் குடல்சாறுகளைச் சுரக்கின்றன.



வில்லியம் பியூமாண்ட்
(1785 – 1853)

வில்லியம் பியூமாண்ட் என்பார் ஓர் அறுவைச் சிகிச்சை மருத்துவராவார். இவர் "இரைப்பை சார் உடற் செயலியலின் தந்தை" என அறியப்பட்டிருந்தார். அவர் தனது அவதானிப்புகளின் அடிப்படையில், இரைப்பையிலுள்ள செறிவுமிக்க ஹைட்ரோகுளோரிக் அமிலம்தான் செரிமானத்தில் முக்கியப் பங்காற்றுவதாக குறிப்பிட்டுள்ளார்.

கல்லீரல்: உடலில் காணப்படும் மிகப் பெரிய செரிமானச் சுரப்பி கல்லீரல் ஆகும். இது செம்மண் நிறத்தில் காணப்படுகிறது. இது வலது மற்றும் இடது என இரண்டு கதுப்புகளாக பிரிக்கப்பட்டுள்ளது. வலது கதுப்பானது, இடது கதுப்பைவிட பெரிதானதாகும். கல்லீரலின் கீழ்பகுதியில் பித்தப்பையானது அமைந்துள்ளது. கல்லீரல் செல்கள் பித்தநீரைச் சுரக்கின்றன. அது தற்காலிகமாக பித்தப்பையில் சேகரிக்கப்படுகிறது. பித்தநீரானது உணவு உட்புகும் நேரத்தில் சிறுகுடலுக்குள் வெளியிடப்படுகிறது. பித்தநீரில் பித்தஉப்புகளும் (சோடியம் கிளைக்கோலேட் மற்றும் சோடியம் டாரோகிளைக்கோலேட்) பித்த நிறமிகளும் (பைலிரூபின் மற்றும் பைலிவிரிடின்) காணப்படுகின்றன. பித்தஉப்புகள், பால்மமாக்கல் (பெரிய கொழுப்பு திவலைகள் சிறு சிறு திவலைகளாக மாற்றப்பட்டு கொழுப்பு செரிக்கவைக்கப்படுகிறது). என்ற செயலின் அடிப்படையில் கொழுப்பு செரித்தலுக்கு உதவுகின்றன.

கல்லீரலின் பணிகள்

- இரத்த சர்க்கரை மற்றும் அமினோ அமில அளவைக் கட்டுப்படுத்துதல்.
- கருவில் சிவப்பு இரத்த அணுக்களை உருவாக்குதல்.
- இரத்தம் உறைதலுக்குப் பயன்படும் பைபிரினோஜன் மற்றும் புரோத்ராம்பின் ஆகியவற்றை உருவாக்குதல்.
- சிவப்பு இரத்த அணுக்களை அழித்தல்.
- இரும்பு, தாமிரம், வைட்டமின்கள் A மற்றும் D ஆகியவற்றை சேமித்து வைத்தல்.
- ஹெப்பாரின் உருவாக்குதல் (இரத்தம் உறைதலை தடுப்பான்).

- நச்சுகள் மற்றும் உலோக நஞ்சினை வெளியேற்றல்.
- மருந்துப் பொருட்கள் மற்றும் ஆல்கஹாலின் நச்சுத் தன்மைகளை நீக்குதல்.

கணையம்: இது பிளவுபட்ட இலை போன்ற அமைப்புடைய சுரப்பியாகும். இரைப்பைக்கும் டியோடினத்திற்கும் (முன் சிறுகுடல்) இடையே அமைந்துள்ளது. கணையமானது நாளமுள்ள சுரப்பியாகவும் நாளமில்லா சுரப்பியாவும் செயலாற்றுகிறது. நாளமுள்ள சுரப்பியின் பகுதியாகயிருக்கின்ற கணையத்தின் சுரப்புப்பகுதி கணைய நீரைச் சுரக்கிறது. அவற்றில் மூன்று நொதிகள் காணப்படுகின்றன. அவையானவன: லிப்பேஸ், டிரிப்சின் மற்றும் அமைலேஸ். இவை, முறையே கொழுப்பு, புரதம் மற்றும் ஸ்டார்ச் ஆகியவற்றில் செயலாற்றுகின்றன. இதன் மேற்புறத்தில் லாங்கர்கான் திட்டுகள் காணப்படுகின்றன. இந்த லாங்கர்கான் திட்டுகள் நாளமில்லா செல்களைக் கொண்டுள்ளன மற்றும் ஹார்மோன்களையும் சுரக்கின்றன. இதிலுள்ள ஆல்பா செல்கள் குளுக்கோகான் என்ற ஹார்மோனையும், பீட்டா செல்கள் இன்சுலின் ஹார்மோனையும் சுரக்கின்றன.

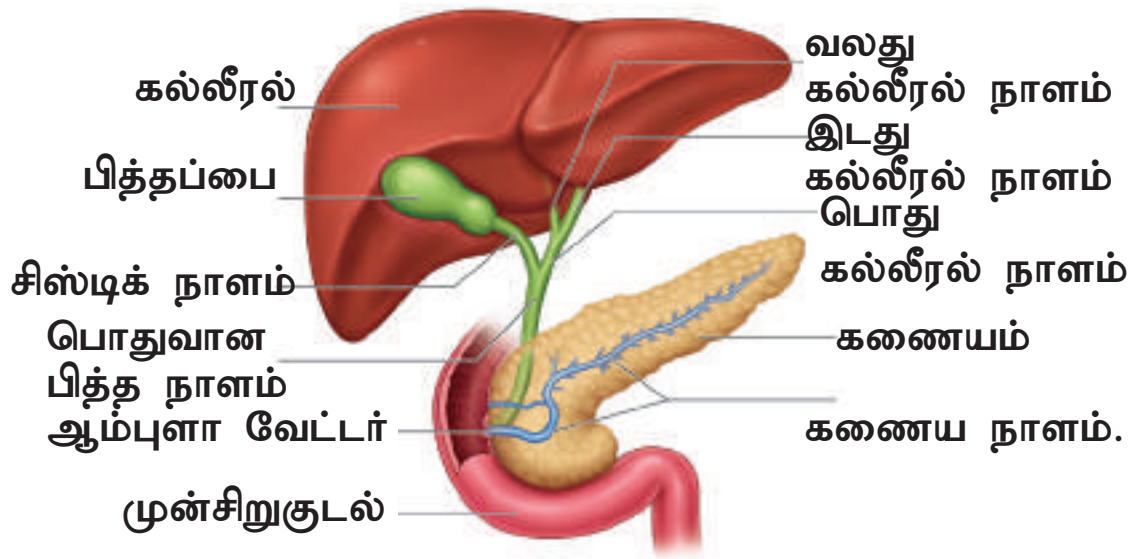

படம் 20.4 பித்த நாளம் மற்றும் கணைய நாளம் டியோடினத்தில் திறந்த நிலை.

குடல் சுரப்பிகள் சக்கஸ் எண்ட்டிரிகஸ் என்ற சாறினைச் சுரக்கின்றன. அதில் மால்டேஸ், லாக்டேஸ், சுக்ரேஸ் மற்றும் லிப்பேஸ் போன்ற காரத்தன்மையுடைய பகுதிகளில் செயலாற்றும் நொதிகள் காணப்படுகின்றன. முன் சிறுகுடலிலிருந்து உணவானது மெதுவாக கீழ்நோக்கி நகர்ந்து பின்சிறுகுடலை அடைகிறது. அங்கே செரிக்கப்பட்ட உணவானது உறிஞ்சப்படுகிறது.

i) **உணவு உறிஞ்சப்படுதல்:** உறிஞ்சுதல் என்பது செரிமானத்திற்குப் பின்னர் பெறப்பட்ட ஊட்டச் சத்துக்களானவை குடலுறுஞ்சிகளால் உறிஞ்சப்பட்டு, இரத்தம் மற்றும் நிணநீர் மூலம் உடல் முழுவதும் விநியோகிக்கப்பட்டு, ஒவ்வொரு உடல் செல்களின் தேவைகளுக்கு ஏற்ப வழங்கப்படுதல் ஆகும்.

ii) **உணவு தன்மயமாதல்:** தன்மயமாதல் என்பது உறிஞ்சப்பட்ட உணவுப்பொருட்களை உட்புறமுள்ள மற்றும் ஒத்திசைவான திசுக்களோடு இணைப்பதாகும். கொழுப்பு செரிமானமாவதன் விளைவாக உருவானவைகள் (கொழுப்பு அமிலங்கள் மற்றும் கிளிசரால்) மீண்டும் கொழுப்புகளாக மாற்றப்படுகின்றன. அதிகப்படியாக உள்ள கொழுப்புகள் கொழுப்புத்திசுக்களில் அடுக்காக சேமித்து வைக்கப்படுகின்றன. அதிகப்படியாக உள்ள சர்க்கரையானது, சிக்கலான கூட்டுச் சர்க்கரை (பாலிசாக்ரைடு) மற்றும் கிளைக்கோஜனாக கல்லீரலில் மாற்றப்படுகிறது. அமினோ அமிலங்கள் உடலுக்குத் தேவையான பல்வேறு புரதங்களைத் தொகுக்க பயன்படுத்தப்படுகின்றன.

உங்களுக்குத் தெரியுமா?

செரிமான மண்டலத்தின் மிக நீளமான பகுதியான சிறுகுடல் 5 மீ நீளமுடையது, ஆனால் தடித்த குழாயான, பெருங்குடல் 1.5 மீ நீளமுடையது.

பெருங்குடல்: உறிஞ்சப்படாத மற்றும் செரிக்காத உணவு பெருங்குடலுக்குள் செலுத்தப்படுகிறது. இது பின்சிறுகுடலிலிருந்து மலவாய் வரை பரவியுள்ளது. இதனுடைய நீளம் சுமார் 1.5 மீட்டர் ஆகும். இது மூன்று பகுதிகளைக் கொண்டது. அவையாவன: முன் பெருங்குடல் (சீக்கம்), பெருங்குடல் (கோலன்) மற்றும் மலக்குடல் (ரெக்டம்).

சீக்கமானது, ஓர் சிறிய முட்டுப்பைப் போன்ற அமைப்பாகும். இது சிறுகுடல் மற்றும் பெருங்குடல்

IX_SCI_TM_Unit-20_BIO.indd 242 05-03-2020 15:21:55

அட்டவணை 20.3 செரிமான நொதிகள்

செரிமான சுரப்பி	நொதிகள்	மூலக்கூறு	செரிமான விளைபொருள்
உமிழ்நீர் சுரப்பி	(உமிழ்நீர் நொதி அமைலேஸ்) டையலின்	ஸ்டார்ச்	மால்டோஸ்
இரைப்பைச் சுரப்பிகள்	பெப்சின்	புரதங்கள்	பெப்டோன்கள்
	ரென்னின்	பால்புரதங்கள் (அ) கேசினோஜன்	பாலை உறையச் செய்து கேசின் புரதம் தயாரித்தல்
கணையம்	கணைய அமைலேஸ்	ஸ்டார்ச்	மால்டோஸ்
	ட்ரிப்ஸின்	புரதங்களும் பெப்டோன்களும்	பெப்டைடு மற்றும் அமினோ அமிலங்கள்.
	கைமோட்ரிப்ஸின்	புரதம்	புரோடியோஸஸ், பெப்டோன்கள், பாலிபெப்டைடுகள், மூன்று பெப்டைடுகள் இருபெப்டைடுகள்,
	கணைய லிப்பேஸ்	பால்மமாக்கப்பட்ட கொழுப்புகள்	கொழுப்பு அமிலங்கள் மற்றும் கிளிசரால்
குடல் சுரப்பிகள்	மால்டேஸ்	மால்டோஸ்	குளுக்கோஸ் மற்றும் குளுக்கோஸ்
	லாக்டேஸ்	லாக்டோஸ்	குளுக்கோஸ் மற்றும் காலெக்டோஸ்
	சுக்ரேஸ்	சுக்ரோஸ்	குளுக்கோஸ் மற்றும் ப்ரக்டோஸ்
	லிப்பேஸ்	கொழுப்புகள்	கொழுப்பு அமிலங்கள் மற்றும் கிளிசரால்.

இணையும் இடத்திலுள்ளது. இப்பகுதியில் விரல் போன்ற குடல்வால் அமைந்துள்ளது. இது மனிதனில் காணப்படும் பயனற்ற, குறிப்பிட்ட பணி ஏதுமற்ற ஓர் எச்ச உறுப்பாகும்.

பெருங்குடல் பகுதி பின்சிறுகுடலினை விட பரந்த அளவில் உள்ளது. இது மேல்நோக்கி வயிற்றின் வலதுபுறமாகச் சென்று (ஏறும் அமைப்புடைய பெருங்குடல்) வயிற்றுப் பகுதியின் இடதுபுறம் குறுக்காகத் திரும்பி (குறுக்கு பெருங்குடல்) பின்னர் இடது பகுதியில் கீழ்நோக்கிச் (கீழிறங்கும் அமைப்புடைய பெருங்குடல்) செல்கிறது. மலக்குடல் இறுதியாகச் சென்று மலவாயில் திறக்கிறது. மலவாயானது வளையங்கள் போன்ற மூடிய நிலையிலிருக்கும் தசையாலானதாகும். இது மலமானது வெளியே கடந்து செல்லும்போது திறக்கும் அமைப்புடையது. இது மலச்சுருள் தசை என அழைக்கப்படுகிறது.

செயல்பாடு 2

மனிதனின் செரிமான மண்டலம் போன்ற ஓர் மாதிரியை எளிய பொருட்களாகிய புனல், குழாய், ஒட்ட உதவும் பளிங்குத்தாள், சுத்தமான பை போன்றவற்றை வைத்து தயாரித்து, அவற்றின் பாகங்களைக் குறிக்கவும், செரிமான செயல்முறை படிநிலைகளில் இப்பாகங்களின் பங்கு குறித்து எழுதுக.

உட்கொள்ளப்பட்டு, செரிக்காத மற்றும் தன்மயமாகாத உணவுப் பகுதியானது மலவாய் வழியாக கழிவுப்பொருளாக உடலிலிருந்து வெளியேற்றப்படுகிறது. இதனையே மலம்வெளியேற்றல் அல்லது மலம் கழித்தல் என்கிறோம்.

20.2 மனித கழிவு நீக்க மண்டலம்

உயிர்வாழும் செல்களில் வளர்ச்சிதைமாற்ற நிகழ்வானது தொடர்ச்சியாக நடைபெறுகின்றது. உயிர்வேதியியல் வினையினால் உருவான வளர்ச்சிதை மாற்ற விளைபொருட்கள் அனைத்தும் உடலினால் பயன்படுத்தப்படுவதில்லை. ஏனென்றால், சில நைட்ரஜன் கலந்த நச்சுத் தன்மையுடைய பொருட்களும் அதனுடன் தயாரிக்கப்படுகின்றன. இவைகள் எல்லாம் கழிவுநீக்கப் பொருட்கள் என அழைக்கப்படுகின்றன. யூரியா மனிதனின் பிரதான கழிவுநீக்கப் பொருளாகும். இந்தக் கழிவுகளை நீக்குவதில் பங்குகொள்ளும் திசுக்கள் மற்றும் உறுப்புகள் அனைத்தும் சேர்ந்து கழிவு நீக்க மண்டலமாகிறது.

மனித கழிவுநீக்க மண்டலம் ஓரிணை சிறுநீரகங்களைக் கொண்டுள்ளது. இவை சிறுநீரை உருவாக்குகின்றன. ஓரிணை சிறுநீரக நாளத்தின் மூலம் சிறுநீரானது சிறுநீரகத்திலிருந்து கடத்தப்பட்டு சிறுநீர்ப் பையில் தற்காலிகமாக சேகரிக்கப்படுகிறது. பின்னர் சிறுநீரானது

IX_SCI_TM_Unit-20_BIO.indd 243 05-03-2020 15:21:55

சிறுநீர்ப்பை சுருங்குவதால் சிறுநீர்ப் புறவழியின் வழியாக வெளியேற்றப்படுகிறது.

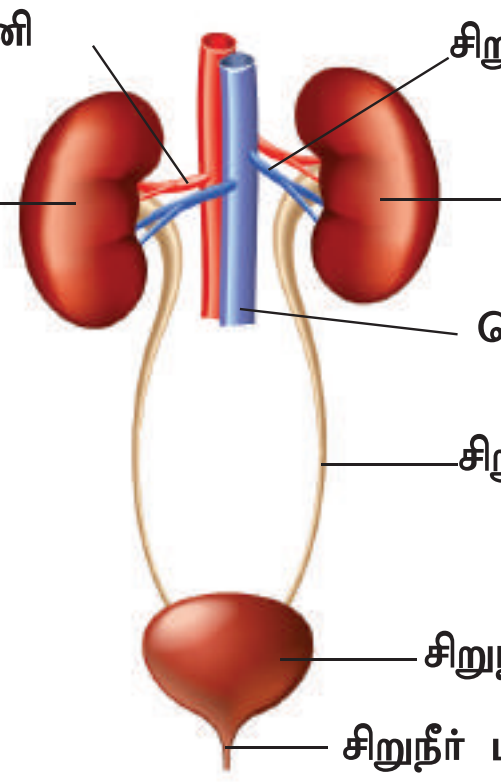

படம் 20.5 கழிவு நீக்க மண்டலம்

கழிவுநீக்கப் பொருட்களானவை சேகரிக்கப்பட்டு ஒரே வேளையில் வெளியேற்றப்படாமலிருந்தால், உடலுக்கு தீங்கு விளைவிப்பவையாகவும் மற்றும் நச்சுப்பொருட்களாகவும் மாறிவிடுகின்றன. ஆகவே, கழிவுநீக்கமானது உடலினை சமச்சீர் நிலையில் (ஹோமியோஸ்டேஸிஸ்) வைத்துக்கொள்ளும் மிக முக்கியமான பங்கினை ஆற்றுகிறது.

சிறுநீரகங்களைத் தவிர தோல் (சிறிதளவு நீர், யூரியா மற்றும் வியர்வை வடிவில் உப்புக்களை நீக்கல்) மற்றும் நுரையீரல் (கார்பன்–டை–ஆக்ஸைடு வெளியேற்றம் மற்றும் மூச்சு வெளிவிடுதல் மூலம் நீர்த் திவலைகளை வெளியேற்றுதல்) ஆகியன பிற கழிவுநீக்க உறுப்புகளாகும்.

20.2.1 தோல்

தோலானது உடலை மூடியிருக்கும் வெளிப்புறப்பகுதியாகும். இது உடலின் அனைத்துப் பகுதிகளிலும் நீட்சியடைந்து ஓர் அடுக்குபோல காணப்படுகிறது. இது ஓர் முதிர்ச்சியடைந்த மனிதனின் உடல் எடையில் 15 சதவீதத்தைக் கொண்டுள்ளது. இந்த தோலிலிருந்து பல்வேறு அமைப்புகளும் சுரப்பிகளும் உருவாகியுள்ளன. இது வியர்த்தல் என்ற செயல்பாட்டால் வளர்சிதை மாற்றக் கழிவுகளை வெளியேற்றுகிறது.

மனித உடலானது 37°C வெப்பநிலையில் சாதாரணமாக இயங்குகிறது. வெப்பமானது அதிகரித்தால் வியர்வைச் சுரப்பிகள் வியர்வையைச் சுரக்க ஆரம்பிக்கின்றன. அவற்றில் நீருடன் சிறிதளவு பிற வேதிப்பொருட்களாகிய அம்மோனியா, யூரியா, லாக்டிக் அமிலம் மற்றும் உப்புகள் (பெரும்பாலும் சோடியம் குளோரைடு) காணப்படுகின்றன. இந்த வியர்வையானது தோலில் காணப்படும் துளைகளின் வழியாக வெளியே கடந்து வந்து ஆவியாகிவிடுகிறது.

20.2.2 சிறுநீரகங்கள்

சிறுநீரகம் அடர் சிவப்பு நிறங்கொண்ட அவரை வடிவ உறுப்பாகும். இது முதுகெலும்பின் இரு பக்கத்திலும் வயிற்றுப் பகுதியின் அடிப்பாகத்திலுள்ள சுவர் பகுதியோடு ஒட்டிக் காணப்படுகிறது. கல்லீரலானது வலது புறத்தில் அதிக இடத்தில் படர்ந்திருப்பதால் வலது புறமுள்ள சிறுநீரகமானது இடதுபுற சிறுநீரகத்தைவிட சற்று கீழே காணப்படுகிறது. ஒவ்வொரு சிறுநீரகமும் சுமார் 11 செ.மீ நீளமும், 5 செ.மீ அகலமும் மற்றும் 3 செ.மீ பருமனும் கொண்டதாகயிருக்கிறது. சிறுநீரகமானது தசைநார் இணைப்புத் திசுக்கள், சிறுநீரக கேப்சியூல்கள், கொழுப்பு கேப்சியூல்கள் மற்றும் இழைகளாலான சவ்வினால் மூடப்பட்டுள்ளது.

சிறுநீரகத்தினுள் கார்டெக்ஸ் (புறணி) என்ற ஓர் அடர்த்தியான வெளிப்பகுதியும் மெடுல்லா என்ற மெலிதான உட்பகுதியும், காணப்படுகிறது. இவ்விரண்டு பகுதிகளும் சிறுநீரக நுண்குழல்கள் அல்லது நெஃப்ரான்களைக் கொண்டுள்ளன. மெடுல்லா என்ற பகுதியில் பல்வேறு நுண்குழாய்கள் கூம்பு வடிவில் குவிந்து ஒட்டுமொத்தமாக அமைந்துள்ளன. இவை மெடுல்லா பிரமிடுகள் அல்லது சிறுநீரக பிரமிடுகள் என அழைக்கப்படுகின்றன. இவைகளின் அடித்தளமானது கார்டெக்ஸ் (புறணி) என்ற பகுதியின் அருகில் உள்ளது. ஒவ்வொரு சிறுநீரகத்தின் உட்குழிவுப்பகுதியில் உள்ள ஹைலம் என்று அழைக்கப்படும், வாயில் போன்ற அமைப்பின் வழியே இரத்த நாளங்களும், நரம்புகளும் உள்ளே நுழைகின்றன. அங்கிருந்து சிறுநீரானது சிறுநீர் நாளத்தின் வழியே வெளியேற்றப்படுகிறது.

சிறுநீர்க்குழாய்: சிறுநீர்க்குழாய் என்பது தசையாலான குழல் ஆகும். இது ஹைலம் என்ற பகுதியிலிருந்து வெளிப்படுகின்றது. ரீனல் பெல்விஸ் என்ற பகுதியிலிருந்து சிறுநீரகக் குழாய் பகுதிக்குள் பெரிஸ்டால்டிக் இயக்கத்தின் மூலம் சீறுநீரானது கடத்தப்படுகிறது. இச்சிறுநீர்க்குழாய்கள் சிறுநீரகத்திலிருந்து சிறுநீரை சிறுநீர்ப்பைக்கு எடுத்துச் செல்கின்றன.

சிறுநீர்ப்பை: சிறுநீர்பை ஒரு பை போன்ற அமைப்புடையது. இப்பை வயிற்றுப்பகுதியில் இடுப்புக்குழி என்ற இடத்தில் அமைந்துள்ளது. இது தற்காலிகமாக சிறுநீரைச் சேகரித்து வைக்கின்றது.

சிறுநீர்ப்புறவழி: சிறுநீர்புறவழியானது ஒரு தசையாலான, சிறுநீரை வெளியேற்றும் குழலாகும். சிறுநீர்ப்புறவழியினை சிறுநீரகச் சுழல் (சிறுநீரக ஸ்பின்க்டர்) அமைப்பானது சீறுநீர் கழித்தல் நேரத்தில் திறக்கவும், மூடவும் செய்கிறது.

IX_SCI_TM_Unit-20_BIO.indd 244 05-03-2020 15:21:55

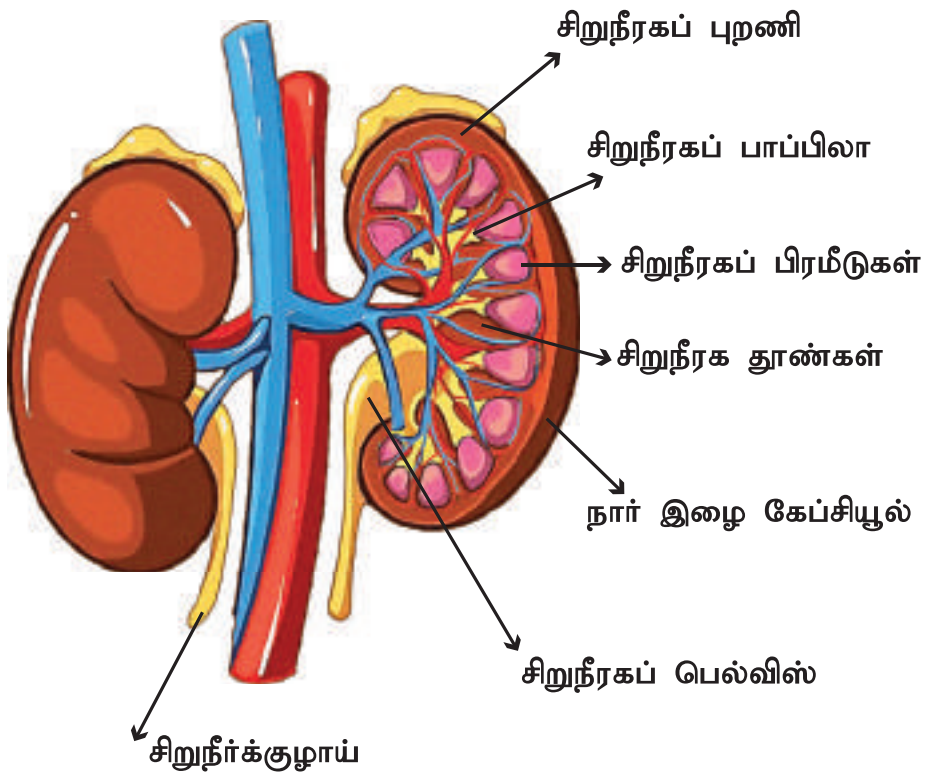

படம் 20.6 மனித சிறுநீரகத்தின் நீள்வெட்டுத் தோற்றம்

சிறுநீரகத்தின் பணிகள்

1. நமது உடலில் நீரையும் மின்பகுபொருள்களையும் சமநிலைப்படுத்த உதவுகிறது.
2. இரத்தத்தில் அமில – காரச்சமநிலையை ஒழுங்குபடுத்துகிறது.
3. இரத்தத்திலும், திசுக்களிலும் சவ்வூடு பரவல் அழுத்தத்தினைச் (osmotic pressure) சமநிலைப்படுத்துகிறது.
4. பிளாஸ்மா திரவத்தின் முக்கிய பகுதிப் பொருள்களான குளுக்கோஸ் மற்றும் அமினோ அமிலங்களை மீண்டும் பிளாஸ்மாவில் தக்கவைத்துக் கொள்ள உதவுகிறது.

20.3.3 நெஃப்ரானின் அமைப்பு

ஒவ்வொரு சிறுநீரகத்திலும் ஒரு மில்லியனைவிட அதிகமான நெஃப்ரான்கள் அமைந்துள்ளன. இந்த நெஃப்ரான்கள் அல்லது சிறுநீரைக் கொண்டுவரும் சிறுநீரக நுண்குழல்கள் சிறுநீரகத்தின் அடிப்படைச் செயல் அலகுகள் ஆகும். ஒவ்வொரு நெஃப்ரானிலும் சிறுநீரக கார்ப்பசல் அல்லது மால்பீஜியன் உறுப்பு மற்றும் சிறுநீரக நுண்குழல்கள் ஆகிய இரு பகுதிகள் காணப்படுகின்றன. இச்சிறுநீரக கார்ப்பசலில் (Renal corpuscle) கிண்ண வடிவில் காணப்படும் பௌமானின் கிண்ணத்தில் இரத்த நுண் நாளங்களின் தொகுப்பாகிய கிளாமருலஸ் என்ற பகுதி காணப்படுகிறது. இரத்தமானது கிளாமருலஸில் உள்ள நுண்நாளத்தொகுப்பில் உட்செல் நுண் தமனி (Afferent arterioles) வழியாக உட்சென்று, வெளிச் செல் நுண்தமனி (Efferent arterioles) வழியாக வெளியேறுகிறது.

பௌமானின் கிண்ணத்தினைத் தொடர்ந்து உள்ள சிறுநீரக நுண்குழல்கள் மூன்று பகுதிகளைக் கொண்டுள்ளன. அவை அண்மைச்சுருள் நுண்குழலாகவும், 'U' வடிவம் கொண்ட ஹென்லேயின் வளைவாகவும், சேய்மைச்சுருள் நுண்குழலாகவும் தொடர்கின்றன. இச்சுருள் நுண்குழல் சேகரிப்புநாளத்தில் திறக்கிறது. நைட்ரஜன் கழிவுகளெல்லாம் சிறுநீரகப் பெல்விஸில் வடிகட்டப்படுகின்றன. பின்னர் சிறுநீரானது சிறுநீர்ப்பையில் சேகரிக்கப்பட்டு, சிறுநீர்புறவழிப் பகுதி மூலம் வெளியேற்றப்படுகிறது.

20.2.4 சிறுநீர் உருவாகும் முறை

கீழ்காணும் மூன்று படிநிலைகளில் சிறுநீரானது உருவாகிறது.

- கிளாமருலார் வடிகட்டுதல்
- குழல்களில் மீள உறிஞ்சப்படுதல்
- குழல்களில் சுரத்தல்

கிளாமருலார் வடிகட்டுதல்: கிளாமருலஸ் மற்றும் பௌமானின் கிண்ணம் ஆகியவற்றின் எப்பித்தீலிய சுவர்களின்மூலமாகஇரத்தமானதுவடிகட்டப்படுவதால் சிறுநீரானது உருவாக்கப்படுகிறது. இவ்வாறாக வடிகட்டப்பட்ட திரவமானது கிளாமருலார் வடிதிரவம் எனப்படும். இரத்தத்தில் காணப்படும் தேவையான மற்றும் தேவையற்ற பொருள்கள் இங்கு வடிகட்டப்படுகின்றன.

குழல்களில் மீள உறிஞ்சப்படுதல்: அண்மைச் சுருள் நுண்குழலில் காணப்படும் வடிதிரவத்தில் தேவையான பொருள்களான குளுக்கோஸ், அமினோ அமிலங்கள், வைட்டமின்கள், சோடியம், பொட்டாசியம், பைகார்பனேட் மற்றும் நீர் ஆகியவை 'தேர்ந்தெடுத்து மீள உறிஞ்சுதல்' என்ற நிகழ்வால் மீண்டும் உறிஞ்சப்படுகின்றன.

குழல்களில் சுரத்தல்: ஹைட்ரஜன் அல்லது பொட்டாசியம் அயனி போன்ற பொருள்கள் நுண் நாளங்களுக்குள் சுரக்கின்றன. பொட்டாசியம் மற்றும் பிற வேதிப்பொருள்களை பெனிசிலின் மற்றும் ஆஸ்பிரின் போன்ற பொருள்கள் சேய்மை சுருள் நுண்குழல்களில் வடிதிரவமாக சுரக்கின்றன. இந்த நுண்குழல் வடிதிரவமே இறுதியாக சிறுநீர் எனப்படுகிறது. இது மனிதனில் உயர் உப்படர்வுத் (hypertonic) தன்மையுடைய திரவமாக இருக்கிறது. இறுதியாக சேகரிப்பு நாளத்தில் சிறுநீரானது சேர்ந்து பெல்விஸ் பகுதிக்குச் சென்று சிறுநீர்க்குழாய்கள் வழியாக சிறுநீர்பையை அடைந்து பெரிஸ்டால்ஸிஸ் இயக்கத்தின் மூலம் வெளியேறுகிறது. சிறுநீர்ப்பையிலிருந்து சிறுநீர் வெளியேற்றப்படும் நிகழ்வே மைக்டியூரிஷன் (அ) சிறுநீர் வெளியேற்றமாகும். ஒரு ஆரோக்கியமான மனிதன் ஒரு நாளைக்கு ஒன்றுமுதல் இரண்டு லிட்டர் சிறுநீரை வெளியேற்றுகின்றான்.

IX_SCI_TM_Unit-20_BIO.indd 245 05-03-2020 15:21:56

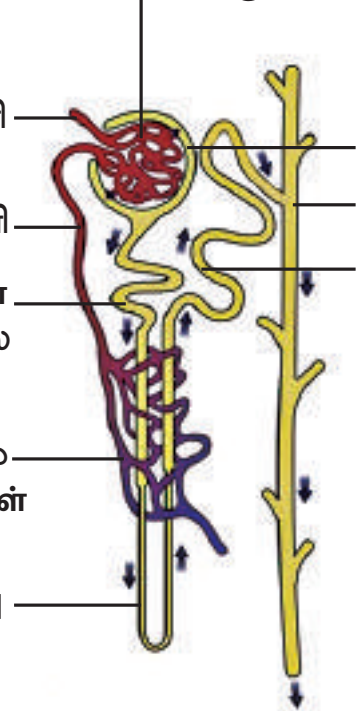

படம் 20.7 நெஃப்ரானின் அமைப்பு

> **உங்களுக்குத் தெரியுமா?**
>
> இரு சிறுநீரகங்களும் மொத்தமாக 2 மில்லியன் நெஃப்ரான்களைக் கொண்டு 170 – 180 லிட்டர் ரத்தத்தை வடிகட்டுகின்றன. சிறுநீரகங்களானவை இரத்தத்தின் அளவில் 99% அளவை மீண்டும் உறிஞ்சிக்கொண்டு மீள வழங்குகின்றன. இரத்தத்திலுள்ள 1% மட்டும் வடிகட்டப்பட்டு சிறுநீராக மாறுகிறது.

கூழ்மப்பிரிப்பு அல்லது செயற்கை சிறுநீரகம்: சிறுநீரகங்கள் தங்கள் வடிகட்டும் திறனை இழக்கும்போது, அதிகப்படியான திரவம் மற்றும் நச்சுக் கழிவுகள் உடலில் குவிகின்றன. இந்த நிலை சிறுநீரக பழுதடைவு (Renal failure) எனப்படுகிறது. இதற்காக, நோயாளியின் இரத்தத்தை வடிகட்ட ஒரு செயற்கை சிறுநீரகம் பயன்படுத்தப்படுகிறது. நோயாளிகளுக்கு கூழ்மப்பிரிப்பு (dialysis) என்ற சிகிச்சை வழங்கப்படுகிறது. இதில் ஓர் செயற்கை சிறுநீரகத்தைப் பயன்படுத்தி இரத்தமானது சுத்தப்படுத்தப்படுகிறது இது ஹீமோடையாலிசிஸ் (haemodialysis) என்று அழைக்கப்படுகிறது. இச்சிறுநீரகப் பழுதடைவானது மருந்துகளாலோ அல்லது கூழ்மப்பிரிப்பினாலோ சிகிச்சையளிக்கப்பட முடியாதபோது நோயாளிகள் சிறுநீரக மாற்று சிகிச்சைக்கு அறிவுறுத்தப்படுகின்றனர்.

> **உங்களுக்குத் தெரியுமா?**
>
> **முதல் சிறுநீரக மாற்றம்**
>
> 1954 ஆம் ஆண்டில் பாஸ்டன் (USA) என்ற நகரத்திலுள்ள பீட்டர் பெண்ட் பிரிகாம் என்ற மருத்துவமனையில் ஜோசப் இ முர்ரே என்ற மருத்துவரும் அவரது சக ஊழியர்களும் ரொனால்டு மற்றும் ரிச்சர்டு ஹெரிக் ஆகிய ஒத்த பண்புடைய இரட்டையர்களுக்கிடையே முதன் முதலில் வெற்றிகரமாக சிறுநீரக மாற்றத்தை செய்தனர். சிறுநீரகத்தைப் பெற்றுக் கொண்ட ரிச்சர்டு ஹெரிக் எட்டு வருடங்கள் வாழ்ந்து பின் காலமானார்.

சிறுநீர் ஓட்டப் பாதையின் விளக்கப் படம்

சிறுநீர் ஓட்டத்தின் பாதை
(நுண் வடிகட்டல்) கிளாமருலஸ்

↓

பௌமானின் கிண்ணம்
(கிளாமருளர் வடிதிரவம் பெறுதல்)

↓

அண்மை முனை சுருண்ட நுண்குழல்
(நீர், குளுக்கோஸ் மற்றும் குளோரைடு அயனிகள் மீளுறிஞ்சப்படுதல்)

↓

இறங்கு மற்றும் ஏறு தூம்புகள் (ஹென்லே வளைவு)
நீரும் சோடியம் அயனிக்களும் உறிஞ்சப்படுதல்

↓

சேய்மை முனை வளைவுக் குழாய்
குளோரைடு மற்றும் நீரும் மீண்டும் உறிஞ்சப்படுதல்.

↓

சேகரிக்கும் நுண்குழல்

↓

சேகரிக்கும் நாளம் (சிறுநீர்)

↓

சிறுநீர்க்குழாய்

↓

சிறுநீர்ப்புறவழி

↓

சிறுநீர் வெளியேற்றம்

20.3 மனித இனப்பெருக்க மண்டலம்

அனைத்து உயிரினங்களும் முன் இருந்த உயிரினங்களிலிருந்து உருவாக்கப்படுகின்றன. இனப்பெருக்கம் செய்யும் தன்மை உயிரினங்களின் மிக முக்கியமான அம்சங்களில் ஒன்றாகும். இந்த செயல்முறை தனிப்பட்ட இனங்களைப் பாதுகாத்தலுக்கான நோக்கங்களைக் கொண்டுள்ளது. இது 'தன்னிலை நீடித்திருந்தல்' (self perpetuation) எனப்படுகிறது.

மனிதர்களில் தனித்துவமான பாலிருவுடமை உள்ளது. அதாவது, ஆண்கள், உடல் வளர்ச்சி, வெளிப்புற பிறப்பு உறுப்புகள் மற்றும் இரண்டாம் நிலை பால் பண்புகள் ஆகியவற்றில் பெண்களைவிட தெளிவாக வேறுபடுகின்றனர். இவ்வாறாக இனப்பெருக்கத்துடன் தொடர்புடைய அமைப்புகள் ஆண் மற்றும் பெண்களில் வேறுபடுகின்றன. ஆண் மற்றும் பெண்களின் இனப்பெருக்க அமைப்புகளில் உள்ள பல்வேறு உறுப்புகள் முதன்மை மற்றும் இரண்டாம் பாலின உறுப்புகளாக வேறுபட்டுக் காணப்படுகின்றன. முதன்மைப் பாலின உறுப்புக்களான பாலினச் சுரப்பிகள் (Gonads) பாலின உயிரணுவைத் (Gametes) தயாரிக்கின்றன. அதைப்போல பாலின ஹார்மோன்களையும் சுரக்கின்றன. இரண்டாம் பாலின உறுப்புகளில் பிறப்புறுப்புக்கள் மற்றும் சுரப்பிகள் ஆகியவை அடங்குகின்றன. அவை, பாலின

IX_SCI_TM_Unit-20_BIO.indd 246 05-03-2020 15:21:56

உயிரணுவினைக் கடத்தவும், இனப்பெருக்கச் செயலை நிகழ்த்தவும் உதவுகின்றன. இவை பாலின உயிரணுவையும், பாலின ஹார்மோன்களையும் உருவாக்குவதில்லை.

இனப்பெருக்க உறுப்புகள் பாலியல் முதிர்ச்சி அடைந்த பின்னர் செயல்படத் தொடங்குகின்றன. ஆண்களில் இம்முதிர்ச்சி 13 – 14 வயதில் ஏற்படுகிறது. பெண்களில் பாலியல் முதிர்ச்சியானது 11 – 13 வயதில் ஏற்படுகிறது. இந்த வயது பருவமடையும் வயது (Puberty) எனப்படுகிறது. பாலியல் முதிர்ச்சியின் போது ஹார்மோன் மாற்றமானது ஆண்களிலும் பெண்களிலும் ஏற்பட்டு அதன் விளைவாக இரண்டாம் நிலை பாலியல் பண்புகள் உருவாக்கப்படுகின்றன.

20.3.1 ஆண் இனப்பெருக்க மண்டலம்

மனித ஆண் இனப்பெருக்க மண்டலத்தில் விந்தகம் (முதன்மை இனப்பெருக்க உறுப்பு), விரைப்பை (scrotum), விந்துநாளம் (vas deferens), சிறுநீர்புறவழிக்குழாய் (urethra), ஆணுறுப்பு (penis) மற்றும் துணைச் சுரப்பிகள் (accessory glands) ஆகியவை உள்ளன.

விந்தகங்கள்: ஆண்களில் வயிற்றறைக்கு வெளியில் ஒரு ஜோடி விந்தகங்கள் உள்ளன. இந்த விந்தகங்கள் ஆண் பாலினச் சுரப்பிகள் ஆகும். இதிலிருந்து ஆண் பாலின உயிரணு (விந்து) மற்றும் ஆண் பாலியல் ஹார்மோன்கள் (டெஸ்டோஸ்டிரான்) உற்பத்தி செய்யப்படுகின்றது. ஒவ்வொரு விந்தகத்தின் உட்புறத்தில் சுருட்டப்பட்ட நுண்குழாய்கள் அதிகமாக உள்ளன. அவை எப்பிடிடைமிஸ் (epididymis) என அழைக்கப்படுகின்றன. அதைப்போல் விந்தகத்தில் காணப்படும் செர்டோலி (sertoli) செல்கள் வளரும் விந்தணுவுக்கு ஊட்டத்தினை வழங்குகின்றன.

விரைப்பை: விரைப்பை என்பது தோலாலான தளர்வான சிறு பை போன்ற அமைப்புடையது. இது உட்புறத்தில் வலது மற்றும் இடது பக்க விரைப்பையானது (Scrotal sac) ஓர் தசையினால் இரண்டாக பிரிக்கப்பட்டுள்ளது. இரண்டு விந்தகங்களும் அந்தந்த விரைப்பையினுள் அமைந்துள்ளன. இது பல நரம்புகளையும், இரத்த நாளங்களையும் கொண்டுள்ளது. இந்த விரைப்பை வெப்பசீராக்கியாக (thermoregulator) செயலாற்றும் உறுப்பாகும். விந்துக்களை உருவாக்குவதற்குத் தேவையான உகந்த வெப்பநிலையை இது வழங்குகிறது. சாதாரண உடல் வெப்பநிலையைவிட 1 முதல் 3°C குறைவான வெப்பநிலையில் விந்தணுவின் வளர்ச்சி ஏற்படுகிறது.

விந்து நாளம்: இது விந்தணுவினை விந்துப்பைக்கு (seminal vesicle) எடுத்துச் செல்லும் ஒரு நேரான குழாய் ஆகும். விந்தணுக்களெல்லாம் இவ்விந்துப்பையில் காணப்படும் விந்து பிளாஸ்மாவில் சேகரிக்கப்படுகின்றன. இவ்விடத்தில் பிரக்டோஸ் (fructose), கால்சியம் மற்றும் நொதிகள் அதிகமாகக் காணப்படுகின்றன. விந்தணுவிற்கு ஆற்றலை அளிக்கும் ஆதாரமாக பிரக்டோஸ் இருக்கிறது. விந்துநாளமானது விந்துப்பையை தொடர்ந்து விந்து வெளியேற்றும் நாளத்தில் திறக்கிறது. விந்துப்பையிலிருந்து விந்தும் பிற சுரப்புகளும் விந்து வெளியேற்றும் நாளத்திற்குச் சென்று சிறுநீர் புறவழிக்குழாய் வழியாக (urethra) வெளியேற்றப்படுகின்றன.

சிறுநீர் புறவழிகுழாய்: இது ஆண்குறியினுள் இருக்கின்றது. சிறுநீர்ப்பையிலிருந்து சிறுநீரும் விந்துப்பையிலிருந்து விந்தணுவும் சிறுநீர் புறவழிக்குழாய் திறப்பு வழியாக வெளியேறுகின்றன.

ஆண் இனப்பெருக்க அமைப்புடன் தொடர்புடைய இணைச் சுரப்பிகள், விந்தணுப்பை, ப்ரோஸ்டேட் சுரப்பி மற்றும் கோப்பர் சுரப்பிகள் ஆகியவற்றைக் கொண்டுள்ளன. இந்தச் சுரப்பிகளில் சுரக்கும் திரவம், விந்தணுவுடன் இணைந்து விந்தணு இடம்பெயர்ந்து செல்லவும் அவற்றிற்கு ஊட்டமளிக்கவும் உதவுகிறது.

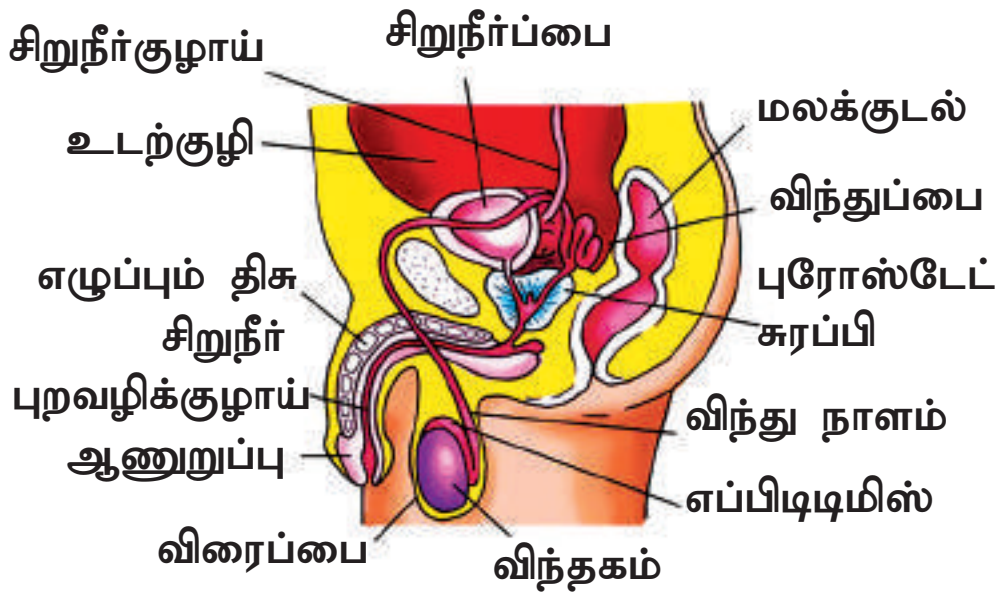

படம் 20.8 ஆண் இனப்பெருக்க மண்டலம்

> உங்களுக்குத் தெரியுமா?
>
> ஆணின் உடலில் மிகச் சிறிய செல் விந்து ஆகும். ஒரு சாதாரண ஆணின் வாழ்நாளில் 500 பில்லியன் விந்தணுக்கள் உருவாகின்றன. இவ்வாறாக விந்துவை உருவாக்கும் செயலுக்கு விந்தணுவாக்கம் (ஸ்பெர்மடோஜெனிசிஸ்) என்று பெயர்.

20.3.2 பெண் இனப்பெருக்க மண்டலம்

பெண் இனப்பெருக்க மண்டலமானது, அண்டகங்கள் (முதன்மை பாலின உறுப்பு), கருப்பைக்குழாய், கருப்பை, யோனிக்குழாய் ஆகிய பகுதிகளை உள்ளடக்கியது.

அண்டகங்கள்: பெண்களில் ஓரிணை பாதாம்–வடிவ அண்டகங்கள், கீழ் வயிற்றறையில்

IX_SCI_TM_Unit-20_BIO.indd 247 05-03-2020 15:21:56

சிறுநீரகங்களுக்கு அருகில் அமைந்துள்ளன. அண்டகங்கள் பெண் இனப்பெருக்க சுரப்பிகள் ஆகும். இதிலிருந்து பெண் பாலின உயிரணு (கரு முட்டை அல்லது அண்டம்) மற்றும் பெண் பாலின ஹார்மோன்கள் (ஈஸ்ட்ரோஜன் மற்றும் புரொஜெஸ்டிரான்) உற்பத்தி செய்யப்படுகின்றன. ஒரு முதிர்ந்த அண்டகத்தில் பல்வேறு நிலைகளில் வளர்ச்சியடைந்துள்ள அதிகப்படியான அண்டங்கள் / கரு முட்டைகள் காணப்படுகின்றன.

ஃபெலோப்பியன் குழல் (கருக்குழல்): இவை கருப்பையின் இரு பகுதியிலிருந்தும் புறப்படும் இணையான குழல்கள் ஆகும். இக்குழலின் முனைப் பகுதியானது புனல் வடிவமுடையதாகவும், விரல் போன்ற ஃபிம்பிரியே என்ற நீட்சிகளுடனும் அண்டகத்தின் அருகில் அமைந்துள்ளது. இந்த ஃபிம்பிரியே அண்டத்திலிருந்து வெளியான கருமுட்டையை எடுத்து ஃபெலோப்பியன் குழலுக்குள் தள்ளுகிறது.

கர்ப்பப்பை: கர்ப்பப்பையானது ஒரு பேரிக்காய் போன்ற தசையாலான வெற்றிடமுள்ள அமைப்புடையது. இது இடுப்புக்குழிக்குள் அமைந்து காணப்படுகிறது. இந்த கர்ப்பப்பையானது, சிறுநீர்ப்பை மற்றும் மலக்குடலுக்கு இடையே உள்ளது. கருவின் வளர்ச்சியானது கர்ப்பப்பையின் உள்ளே நடைபெறுகிறது. கர்ப்பப்பையின் குறுகலான அடிப்பகுதியானது கருப்பைவாய் (செர்விக்ஸ்) என அழைக்கப்படுகிறது. இது யோனி என்ற பகுதிக்குள் செல்கிறது.

யோனிக்குழாய்: கர்ப்பப்பையானது யோனி என்று அழைக்கப்படும் வெற்றிட தசையாலான குழாயாக சுருங்கத் துவங்குகிறது. இது கருப்பைவாய் மற்றும் வெளி பிறப்புறுப்பை (external genitalia) இணைக்கிறது. இப்பகுதி விந்துக்களைப் பெறுகிறது. குழந்தைப் பிறப்பின்போது (parturition) பிறப்புக் கால்வாயாகவும் (birth canal) மாதவிடாய் ஓட்டத்திற்கான பாதையாகவும் இப்பகுதியானது செயலாற்றுகிறது.

மேலும் அறிந்துகொள்வோம்

கருமுட்டைதான் மிகப்பெரிய மனித செல் ஆகும். கருமுட்டையானது உருவாதல் நிகழ்வுக்கு கருமுட்டை உருவாக்கம் (Oogenesis) என்று பெயர்.

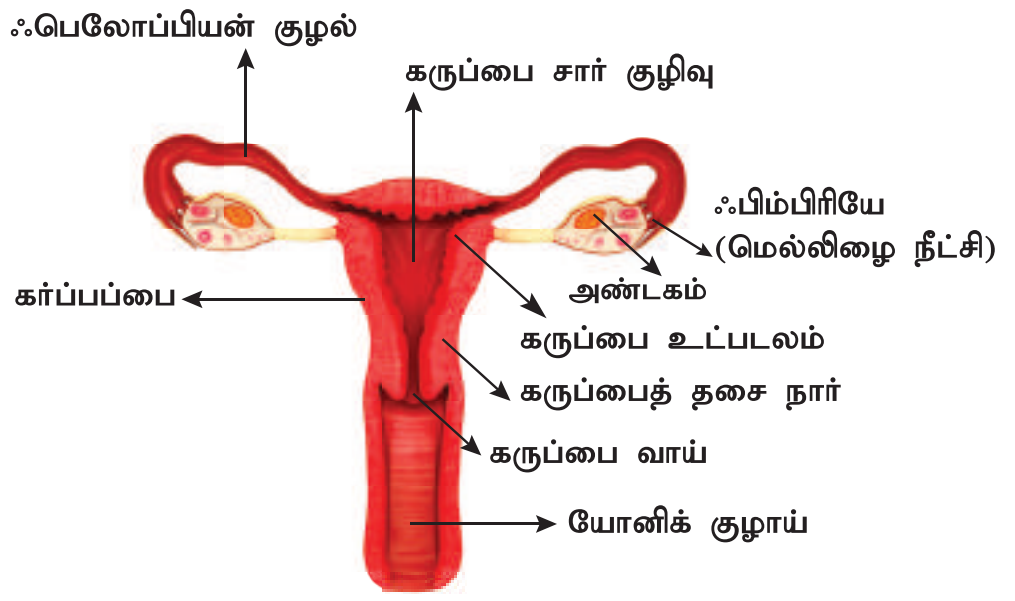

படம் 20.9 பெண் இனப்பெருக்க மண்டலம்

நினைவில் கொள்க

- உறுப்பு மண்டலங்கள் அனைத்தும் இணைவாக செயலாற்றி உயிரினத்தின் உடலினை சீரான சமநிலையில் (ஹோமியோஸ்டேசிஸ்) பராமரிக்கிறன. பல உறுப்பு மண்டலங்களுக்கு இடையில் பணிப் பங்கீடு காணப்படுகின்றது.
- உணவுப் பாதை ஒரு தசையாலான, சுருண்ட மற்றும் குழாய் வடிவ அமைப்பாகும். இவ்வுணவுப் பாதையில் வாய், வாய்குழி, தொண்டை, உணவுக் குழல், இரைப்பை, சிறுகுடல் (முன்சிறுகுடல், நடுச்சிறுகுடல் மற்றும் பின் சிறுகுடல் உள்ளடங்கியது). பெருங்குடல் (முன்பெருங்குடல், பெருங்குடல் மற்றும் மலக்குடல் உள்ளடங்கியது) மற்றும் மலவாய் போன்ற உறுப்புகள் காணப்படுகின்றன.
- நமது உடலில் செரிமானமானது ஐந்து படிகளில் நிகழ்கிறது. அவையாவன: உணவு உட்கொள்ளல், செரித்தல், உட்கிரகித்தல், தன்மயமாதல் மற்றும் மலம் வெளியேற்றுதல்.
- சிறுகுடலானது, செரிமானம் மற்றும் உறிஞ்சுதல் ஆகிய இரண்டு செயல்களையும் செய்கிறது.
- மனித கழிவுநீக்க மண்டலம் ஒரிணை சிறுநீரகங்களைக் கொண்டுள்ளது. இதிலிருந்து சிறுநீரானது உருவாகிறது.
- மூன்று படிநிலைகளில் சிறுநீரானது உருவாகிறது. கிளாமருலார் வடிகட்டுதல், குழல்களில் மீள உறிஞ்சப்படுதல் மற்றும் குழல்களில் சுரத்தல்.
- ஆண் இனப்பெருக்க மண்டலத்தில் விந்தகம் மற்றும் பெண் இனப்பெருக்க மண்டலமானது, அண்டகங்கள் கொண்ட முதன்மை பாலின உறுப்புகளாக வேறுபட்டுக் காணப்படுகின்றன.

A-Z சொல்லடைவு

பால்மமாக்கம்	பெரிய கொழுப்புத் துளிகளை சிறியதாக மாற்றுதல்.
நொதிகள்	உயிர்வாழும் உயினங்களால் உருவாக்கப்பட்டு குறிப்பிட்ட உயிர்வேதியியல் வினைகள் நடைபெறுவதற்கு வினையூக்கியாக செயல்படும் பொருள்கள்.
ஹோமியோஸ்டேஸிஸ் (சீர்ச் சமநிலை)	வெளிப்புறத்தில் பல்வேறு மாற்றங்கள் நிகழ்ந்தாலும் உடலானது உள் சூழ்நிலையில் ஓர் சமநிலையை ஏற்படுத்த முயலுகின்ற போக்கு ஆகும்.

IX_SCI_TM_Unit-20_BIO.indd 248 05-03-2020 15:21:57

மெல்லுதல்	உணவானது பற்களினால் நொறுக்கப்படுதல்.
வளர்ச்சிதை மாற்றம்	ஓர் உயிரினத்தில் நிகழும் முழு வேதியியல் மற்றும் ஆற்றல் மாற்றங்கள்.
சவ்வூடு பரவல் சீராக்கல்	நீர் மற்றும் உப்பின் செறிவுகளின் கட்டுப்பாட்டினால் ஓர் உயிரினத்தில் உள்ள திரவத்தில் நிலைத்த சவ்வூடு பரவல் அழுத்தத்தைப் பராமரிப்பது.
எதிர்க்களித்தல் அல்லது வாந்தி	விழுங்கப்பட்ட உணவை மீண்டும் வாய்க்குக் கொண்டு வரும் செயல்.
நச்சுப் பொருள்கள்	உயிர் வாழும் உயிரினங்களின் உடல் நலத்திற்கு தாக்கத்தை ஏற்படுத்தும் அல்லது நச்சுத்தன்மையுடையதாக இருக்கும் பொருள்கள்.

AHZ7Z4

மதிப்பீடு

I. சரியான விடையைத் தேர்ந்தெடு.

1. கீழ்காண்பனவற்றில் எது உமிழ்நீர் சுரப்பி இல்லை?

அ. நாவடிச் சுரப்பி ஆ. லாக்ரிமால்
இ. கீழ்தாடைச் சுரப்பி ஈ. மேலண்ணச் சுரப்பி

2. மனிதனின் இரைப்பையில் பெரும்பாலும் செரிப்பவை ________ ஆகும்.

அ. கார்போஹைட்ரேட்கள் ஆ. புரதங்கள்
இ. கொழுப்பு ஈ. சுக்ரோஸ்

3. மூச்சுக்குழலின் துளைக்குள் உணவானது நுழைவதைத் தடுப்பது ________ ஆகும்.

அ. குரல்வளை மூடி ஆ. குரல்வளை முனை
இ. கடின அண்ணம் ஈ. மிருதுவான அண்ணம்

4. பித்த நீர் ____________ செரிக்க உதவுகிறது.

அ. புரதங்கள் ஆ. சர்க்கரை
இ. கொழுப்புகள் ஈ. கார்போஹைட்ரேட்டுகள்

5. சிறுநீரகத்தின் அடிப்படைச் செயல் அலகு ____________ ஆகும்.

அ. குடலுறுஞ்சிகள் ஆ. கல்லீரல்
இ. நெஃப்ரான் ஈ. சிறுநீரகக்குழாய்

6. கீழ்காண்பனவற்றில் எது வியர்வையின் உட்கூறு இல்லை?

அ. யூரியா ஆ. புரதம் இ. நீர் ஈ. உப்பு

7. ஆண்களில் சிறுநீரையும் விந்தையும் கடத்து வதற்கான பொதுவான பாதை ________ ஆகும்.

அ. சிறுநீரக்குழாய் ஆ. சிறுநீர்ப்புறவழி
இ. விந்துக்குழாய் ஈ. விரைப்பை

8. கீழ்காண்பனவற்றில் எது பெண் இனப்பெருக்க மண்டலத்தில் காணப்படாத பகுதி?

அ. அண்டம் ஆ. கருப்பை
இ. விந்தகம் ஈ. அண்டக்குழாய்

II. கோடிட்ட இடங்களை நிரப்பு.

1. சிறுகுடலோடு இரைப்பை இணையும் பகுதி ____________ ஆகும்.
2. உமிழ்நீரோடு உணவினை கலக்குவதற்கு பயன்படும் தசையாலான, உணர்வு உறுப்பு ____________ ஆகும்.
3. கல்லீரலால் சுரக்கப்படும் பித்தநீர் தற்காலிகமாக ____________ ல் சேமித்து வைக்கப்படுகிறது.
4. உணவுப் பாதையில் மிகவும் நீளமான பகுதி ____________ ஆகும்.
5. மனித உடலானது __________ வெப்பநிலையில் இயல்பாக செயல்படுகிறது.
6. பெண்களின் உடலிலுள்ள மிகப்பெரிய செல் ____________ ஆகும்.

III. சரியா? தவறா? தவறெனில் திருத்துக.

1. இரைப்பையில் காணப்படும் நைட்ரிக் அமிலம் உணவிலுள்ள நுண்ணுயிரிகளைக் கொல்லுகிறது.
2. செரிமானத்தின் போது, புரதங்கள் அமினோ அமிலங்களாக உடைக்கப்படுகின்றன.
3. கிளாமருலார் வடிநீரில் அமினோ அமிலங்கள், வைட்டமின்கள், ஹார்மோன்கள், உப்புகள், குளுக்கோஸ் மற்றும் தேவையான பொருட்கள் காணப்படுகின்றன.

IV. பொருத்துக.

உறுப்பு	நீக்குதல்
தோல்	சிறுநீர்
நுரையீரல்கள்	வியர்வை
பெருங்குடல்	கார்பன் டை ஆக்ஸைடு
சிறுநீரகங்கள்	செரிக்காத உணவு

IX_SCI_TM_Unit-20_BIO.indd 249 05-03-2020 15:21:57

V. கீழ்க்கண்டவற்றை வேறுபடுத்துக.

அ. கழிவுநீக்கம் மற்றும் சுரத்தல்

ஆ. உறிஞ்சுதல் மற்றும் தன்மயமாதல்

இ. உட்கொள்ளுதல் மற்றும் வெளியேற்றுதல்

ஈ. இரட்டைப் பல்வரிசை மற்றும் கலப்புப் பல்வரிசை

உ. வெட்டுப் பற்கள் மற்றும் கோரைப் பற்கள்

VI. சுருக்கமாக விடையளி.

1. செரிக்கப்பட்ட உணவை உட்கிரகிக்க எவ்வாறு சிறுகுடலானது அமைக்கப்பட்டுள்ளது?
2. நமக்கு ஏன் வியர்க்கிறது?
3. மனித சிறுநீரகத்தின் ஏதேனும் இரண்டு முக்கிய பணிகளைக் குறிப்பிடுக.
4. சிறுநீர் கழிக்க வேண்டும் என்ற தூண்டுதல் எவ்வாறு நடைபெறுகிறது?
5. முதிர்ச்சியடைந்த மனிதனில் காணப்படும் பற்களின் பெயர்களை எழுதி, அவற்றின் பணிகளைக் குறிப்பிடுக.
6. நெ∴ப்ரானின் அமைப்பினை விளக்குக.

VII. விரிவாக விடையளி.

1. மனிதனின் உணவுப் பாதையை விவரி
2. சிறுநீரகத்தின் அமைப்பினையும், சிறுநீர் உருவாதலிலுள்ள படிநிலைகளையும் விளக்குக.

VIII. கூற்று மற்றும் காரணம் வகை வினாக்கள்.

கீழ்காணும் ஒவ்வொரு வினாக்களிலும், ஒரு கூற்றும் அதன் கீழே அதற்கான காரணமும் கொடுக்கப்பட்டுள்ளன. கீழே கொடுக்கப்பட்டுள்ள நான்கு வாக்கியங்களில் ஒன்றை சரியான பதிலாகக் குறிக்கவும்.

அ. கூற்றும் அதற்கான காரணமும் சரி. இக்காரணமானது கொடுக்கப்பட்ட கூற்றிற்கான சரியான விளக்கமாகும்.

ஆ. கூற்றும் அதற்கான காரணமும் சரி. ஆனால் இக்காரணமானது கொடுக்கப்பட்ட கூற்றிற்கான சரியான விளக்கமில்லை.

இ. கூற்றும் சரி அதற்கான காரணம் தவறானது.

ஈ. கூற்றும் மற்றும் காரணம் இரண்டும் தவறு.

1. கூற்று : சிறுநீரகங்களின் வழியே யூரியா வெளியேற்றப்படுகிறது.

   காரணம் : யூரியா ஒரு நச்சுத்தன்மையுடைய பொருள். இரத்தத்தில் அளவுக்கு அதிகமாக யூரியா குவிந்தால் இறப்புக்கு வழிவகுக்கும்.

2. கூற்று : இரு பாலினங்களிலும் பாலினச் சுரப்பிகள் (gonads) இரட்டை வேலையைச் செய்கின்றன.

   காரணம் : பாலினச் சுரப்பிகள் (gonads) முதன்மை பாலியல் உறுப்புகள் என அழைக்கப்படுகின்றன.

IX. உயர் சிந்தனை வினாக்கள்.

1. இரைப்பை நீரில் பெப்சின் குறைவுபட்டால் இரைப்பையில் எச்செயலானது பாதிக்கப்படும்?

   அ. ஸ்டார்ச்சிலிருந்து சர்க்கரையாக மாறும் செரிமான மாற்றம்.

   ஆ. புரதங்கள் பெப்டைடுகளாக உடைதல்.

   இ. நியூக்ளிக் அமிலங்களின் செரிமானம்.

   ஈ. கொழுப்புகள் கிளிசராலாகவும், கொழுப்பு அமிலங்களாகவும் உடைதல்.
2. மால்பீஜியன் காப்ஸ்யூலுக்குள் செல்லும் மற்றும் மால்பீஜியன் காப்ஸ்யூலை விட்டு வெளியேறும் இரத்த நாளங்களைப் பெயரிடுக.
3. மருத்துவ நோயறிதலில் சிறுநீர் பகுப்பாய்வானது மிக முக்கியமான பகுதியாக இருப்பதாக ஏன் கருதுகிறாய்?
4. உனது மருத்துவர் ஏன் அதிக நீர் குடிக்க அறிவுறுத்துகிறார்?
5. நமது உள்ளங்கைகளிலும், பாதங்களின் உள்ளங்காலிலும் ஏன் வியர்வைச் சுரப்பிகள் உள்ளன என்று உன்னால் யூகிக்கமுடிகிறதா?

X. கீழ்கொடுக்கப்பட்டுள்ள படத்தின் பாகங்களை சரியான விருப்பத் தேர்விலிருந்து எடுத்து பொருத்துக.

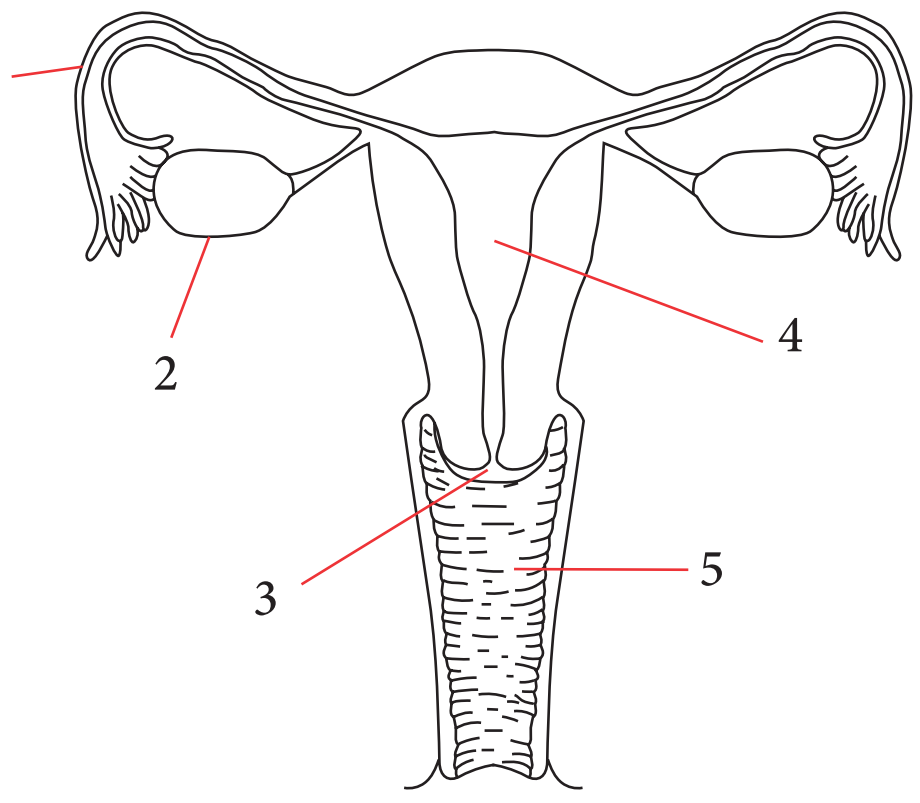

1	2	3	4	5
அ. கருப்பை நாளம்	கருக்குழல்	கர்ப்பப்பை	செர்விக்ஸ்	யோனி
ஆ. கருக்குழல்	செர்விக்ஸ்	யோனி	அண்டகம்	விந்துக்குழல்
இ. அண்டகம்	கருக்குழல்	கர்ப்பப்பை	யோனி	செர்விக்ஸ்
ஈ. கருப்பை நாளம்	அண்டகம்	செர்விக்ஸ்	கர்ப்பப்பை	யோனி

IX_SCI_TM_Unit-20_BIO.indd 250 05-03-2020 15:21:58

பிற நூல்கள்

Verma P.S and Agarwal, V.K. Animal Physiology, S. Chand and Company, New Delhi

இணைய தளங்கள்

https://www.britannica.com/science/human-digestive-system
https://biologydictionary.net/excretory-system/
https://www.britannica.com/science/human-reproductive-system

கருத்து வரைபடம்

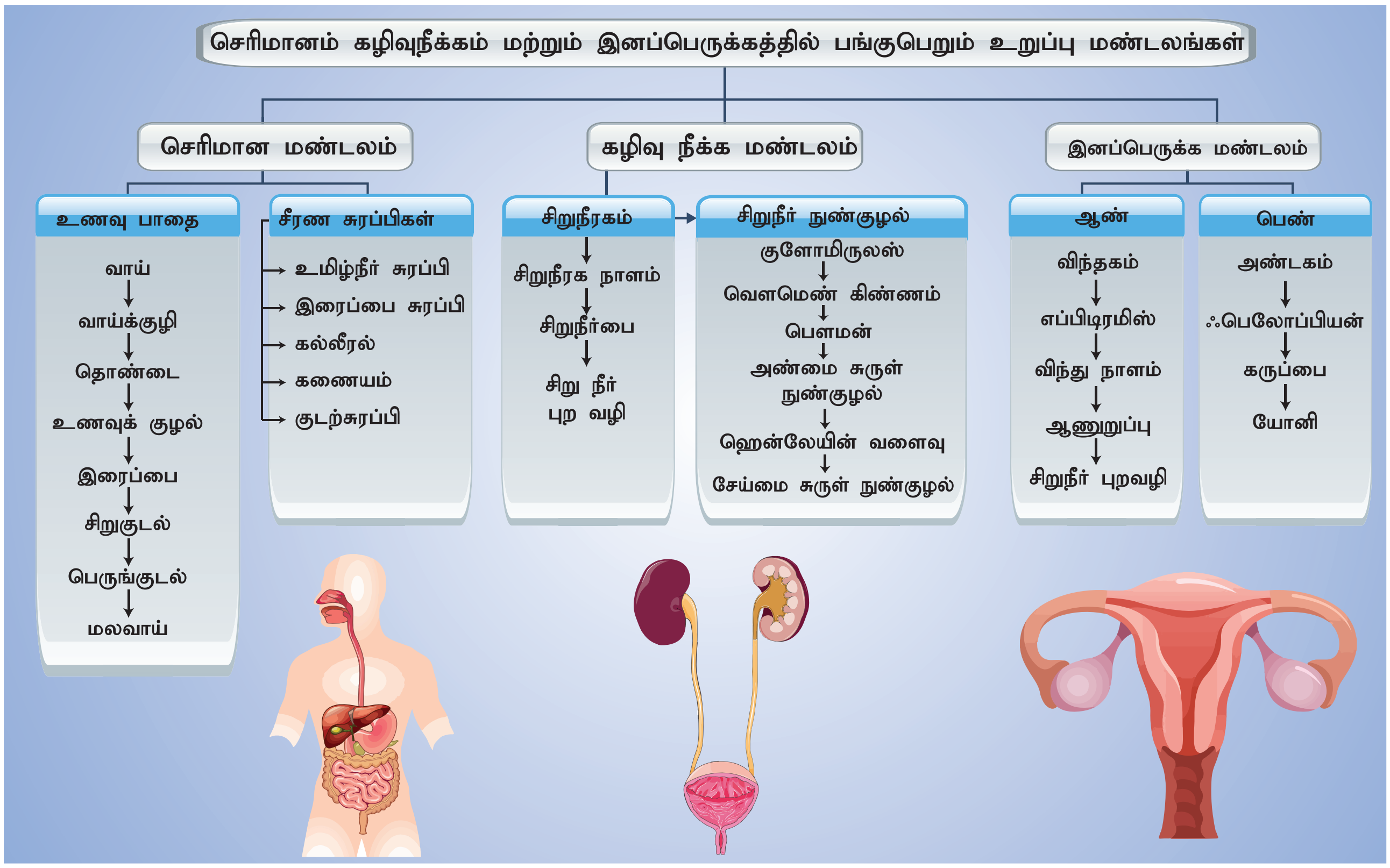

இணையச்செயல்பாடு

மனித செரிமான மண்டலம்

இச்செயல்பாடு செரிமான மண்டலத்தின் அனைத்து உறுப்புகளின் பணிகளையும் ஆராய்ந்தறிய வழிவகை செய்யும்.

படி 1. கீழ்க்காணும் உரலி / விரைவுக் குறியீட்டினைப் பயன்படுத்தி 'The digestive system' என்ற பக்கத்திற்குச் செல்லலாம்.

படி 2. 'Go to Interactive Mode' என்ற பொத்தானை அழுத்தி, எந்த உறுப்பின் பயன்பாடு குறித்து அறிய வேண்டுமோ, அதனை அறிந்து கொள்ளலாம்.

படி 3. எந்த உறுப்புகளின் செயல்பாடு குறித்து தெரிய வேண்டுமோ, அந்த குறிப்பிட்ட உறுப்பினைச் சொடுக்கும் போது, நாம் அறிந்து கொள்ளலாம். இவ்வாறு செரிமான மண்டலத்தின் அனைத்து உறுப்பின் பயன்பாடுகளையும் நாம் அறிந்து கொள்ளலாம்.

படி 4. மேலும், செரிமானச் செயல்முறையை அறிய, 'Go to Animation Mode' என்ற பொத்தானை அழுத்தவும்.

B564_9_SCI_TM_T3

உரலி: http://highered.mheducation.com/sites/0072495855/student_view0/chapter26/animation__organs_of_digestion.html

IX_SCI_TM_Unit-20_BIO.indd 251 05-03-2020 15:21:58